blokboek

redactiesommen A

Wouter de Vlugt

Kinheim

1. In een speeltuin zijn 98 kinderen aan het spelen.
36 kinderen gaan naar huis.
Dan blijven er nog ..... kinderen.

○ 60 *p op 7*
○ 64 *k op 4*
○ 62 *e op 3*

2. Een boer heeft 53 kippen. Hij verkoopt 12 kippen.
Hij houdt ..... kippen over.

○ 65 *a op 3*
○ 41 *l op 7*
○ 31 *k op 8*

3. Piet loopt hard naar huis en verliest 17 knikkers.
Als hij thuis komt, heeft hij nog 42 knikkers over.
Eerst had hij dus ..... knikkers.

○ 59 *w op 2*
○ 25 *u op 1*
○ 52 *o op 5*

4. Marie koopt een muts voor 685 eurocent.
Zij betaalt met 7 euro (€)
Dan krijgt zij ..... eurocent terug.

○ 25 *u op 6*
○ 15 *e op 11*
○ 115 *m op 9*

5. Henk heeft 26 knikkers. Hij speelt eerst met Bram en
wint 15 knikkers. Daarna speelt hij met Jan. Nu verliest
hij 21 knikkers. Dan heeft hij nog ..... knikkers.

○ 20 *i op 8*
○ 63 *k op 7*
○ 36 *z op 2*

6. Ik moet 385 eurocent betalen.
Ik geef twee euro, twee munten van 50 eurocent,
twee munten van 20 eurocent, een munt van
10 eurocent en een munt van 5 eurocent
Er moet nog ..... eurocent bij.

○ 100 *v op 3*
○ 50 *z op 1*
○ 75 *g op 8*

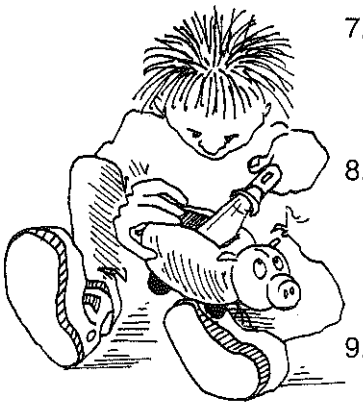

7. Moeder moet in een winkel
355 eurocent betalen.
Zij geeft 4 euro. Ze krijgt ..... eurocent terug.

○ 145 *t op 10*
○ 55 *s op 4*
○ 45 *r op 12*

8. In een spaarpot zitten 2 munten van 20 eurocent,
een munt van 10 eurocent, 4 munten van
2 eurocent en 2 munten van 1 eurocent.
Dat is samen ..... eurocent.

○ 75 *s op 6*
○ 70 *t op 3*
○ 60 *f op 5*

9. Jan koopt 4 postzegels van 90 eurocent en
8 postzegels van 80 eurocent.
Samen voor ..... euro.

○ 8 *v op 9*
○ 9 *o op 11*
○ 10 *g op 10*

10. Vijf kippen, vier varkens en twee koeien
hebben samen ..... poten.

○ 44 *z op 2*
○ 34 *v op 6*
○ 22 *w op 5*

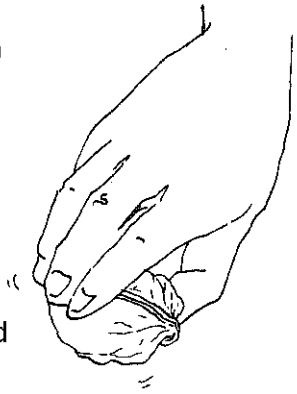

11. Mies is 17 jaar. Haar neef is 7 jaar ouder.
Samen zijn ze ..... jaar.

○ 41 *e op 9*
○ 24 *o op 1*
○ 28 *a op 12*

12. Op een schaal liggen 84 noten. Deze worden verdeeld
onder 12 kinderen. Ieder krijgt ..... noten.

○ 4 *a op 11*
○ 7 *e op 4*
○ 11 *l op 10*

vraag	1	2	3	4	5	6	7	8	9	10	11	12
antwoord												

Redactiesommen A - blad 2



1. Oom is 37 jaar. Vader is 34 jaar.
   Vader is ..... jaar jonger
   - ○ 71 *z op 11*
   - ○ 61 *w op 10*
   - ○ 3 *t op 8*

2. Vader is 39 jaar. Opa is 69 jaar.
   Opa is ..... jaar ouder.
   - ○ 39 *a op 12*
   - ○ 30 *w op 1*
   - ○ 69 *v op 2*

3. Een pen kost € 2,05 Greetje heeft maar
   één euro en 90 eurocent.
   Dan heeft ze ..... eurocent te weinig.
   - ○ 45 *k op 9*
   - ○ 15 *j op 11*
   - ○ 30 *u op 12*

4. Jan, Piet en Hein verdelen 18 noten.
   Iedereen krijgt evenveel. Jan krijgt ..... noten.
   - ○ 8 *o op 10*
   - ○ 9 *s op 1*
   - ○ 6 *t op 4*

5. Er zijn 87 kinderen op het schoolplein.
   Er gaan er 5 weg. Nu zijn er nog ..... kinderen op het plein.
   - ○ 82 *e op 12*
   - ○ 92 *m op 3*
   - ○ 80 *n op 8*

6. Nu is het tien uur in de morgen.
   Over een kwartier is het ..... .
   - ○ kwart over tien *k op 10*
   - ○ kwart voor tien *p op 11*
   - ○ elf uur *a op 7*

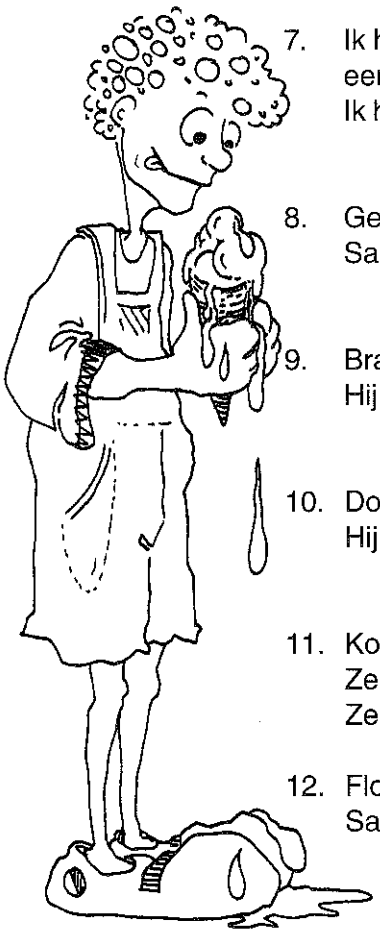

7. Ik heb € 1,25. Ik koop er
   een ijsje voor van 75 eurocent.
   Ik houd nog ..... eurocent over.
   - ○ 2 *h op 9*
   - ○ 50 *e op 5*
   - ○ 15 *b op 6*

8. Gerrit is 12 jaar. Simon is 4 jaar.
   Samen zijn ze ..... jaartjes oud.
   - ○ 24 *u op 7*
   - ○ 28 *b op 5*
   - ○ 16 *l op 6*

9. Bram had 39 knikkers. Nu heeft hij er 50.
   Hij heeft dus ..... knikkers gewonnen.
   - ○ 11 *o op 9*
   - ○ 21 *a op 6*
   - ○ 89 *e op 3*

10. Dorus had 75 stuiters. Nu heeft hij er 95.
    Hij won ..... stuiters.
    - ○ 15 *m op 5*
    - ○ 20 *r op 3*
    - ○ 170 *z op 4*

11. Koba heeft 45 munten van 5 eurocent
    Ze wisselt alles in tegen euro's
    Ze krijgt ..... euro's
    - ○ € 2,50 *r op 8*
    - ○ € 2,25 *s op 7*
    - ○ € 0,45 *t op 2*

12. Floor heeft 30 eurocent. Kees heeft 2 x zoveel.
    Samen hebben ze ..... eurocent.
    - ○ 60 *v op 1*
    - ○ 90 *o op 2*
    - ○ 45 *p op 4*

1	2	3	4	5	6	7	8	9	10	11	12	vraag
○	○	○	○	○	○	○	○	○	○	○	○	antwoord

1. In de spaarpot van Wim zitten 4 munten van 10 eurocent.
en 6 munten van 5 eurocent.
Dat is samen ..... eurocent.

○ 46 *t op 11*
○ 80 *p op 3*
○ 70 *r op 5*

2. Piet heeft een euro. Hij koopt een mooie pen voor 85 eurocent.
Nu heeft hij nog ..... eurocent over.

○ 15 *a op 8*
○ 25 *l op 6*
○ 185 *e op 12*

3. Kitty heeft 6 euro en 3 munten van 20 eurocent
en 3 munten van 5 eurocent.
Ze wil een bal kopen van 7 euro.
Ze heeft dan ..... eurocent te weinig.

○ 25 *s op 12*
○ 15 *p op 3*
○ 35 *v op 4*



4. Jaap heeft 1 euro en 4 munten van 10 eurocent,
Johan heeft 120 eurocent.
Karel heeft 18 munten van 10 eurocent
Ze willen een bal kopen van 5 euro
Ze moeten nog ..... eurocent sparen.

○ 40 *z op 12*
○ 80 *m op 4*
○ 60 *w op 1*

5. Vader is 40 jaar. Moeder is 3 jaar jonger.
Moeder is ..... jaar.

○ 43 *ij op 10*
○ 37 *g op 9*
○ 73 *i op 1*

6. Annie heeft € 5. Ze koopt 8 postzegels van 50 eurocent.
Nu heeft ze nog ..... eurocent over.

○ 100 *d op 6*
○ 50 *f op 5*
○ 150 *l op 2*

7. Marjan heeft € 1,50. Ze krijgt van haar moeder 8 munten van
10 eurocent en van haar vader nog een munt van 50 eurocent.
Nu heeft ze ..... eurocent.

○ 200 *p op 1*
○ 280 *a op 2*
○ 160 *t op 5*

8. Willem krijgt 5 munten van 10 eurocent.
Martha krijgt 3 munten van 20 eurocent
Martha heeft ..... eurocent meer.

○ 60 *m op 7*
○ 110 *d op 9*
○ 10 *e op 4*

9. Jopie heeft 1 munt van 50 eurocent, 1 munt van 20 eurocent
en een munt van 5 eurocent. Gerrit heeft 6 munten van 5 eurocent.
Jopie heeft ..... eurocent meer.

○ 30 *n op 10*
○ 105 *s op 8*
○ 45 *r op 7*

10. De helft van 80 is ..... meer dan de helft van 60.

○ 10 *e op 10*
○ 30 *h op 11*
○ 40 *c op 7*



11. In de klas zitten 20 kinderen.
Dat zijn ..... groepen van 4.

○ 6 *f op 6*
○ 5 *r op 11*
○ 16 *c op 9*

12. 46 is ..... minder dan 58.

○ 8 *h op 8*
○ 12 *t op 3*
○ 21 *u op 5*

vraag	1	2	3	4	5	6	7	8	9	10	11	12
antwoord												

Redactiesommen A - blad 4



1. Cato heeft 27 kralen.
   Jannie heeft er 20 meer.
   Jannie heeft ..... kralen.

   ○ 74 *p op 4*
   ○ 47 *n op 3*
   ○ 7 *c op 1*

2. Wim heeft 85 knikkers.
   Johan heeft er 20 minder.
   Johan heeft ..... knikkers.

   ○ 65 *o op 9*
   ○ 20 *l op 1*
   ○ 105 *k op 10*

3. In een pakje zitten 25 krijtjes. Vader koopt 2 pakjes.
   Na een week is de helft gebroken.
   Hoeveel zijn er dan nog heel?

   ○ 12 *u op 2*
   ○ 50 *a op 11*
   ○ 25 *n op 12*



4. Otto maakt 28 sommen. Hij had er 9 fout.
   Hij had er ..... goed.

   ○ 19 *a op 1*
   ○ 37 *h op 3*
   ○ 21 *d op 2*

5. Loesje maakt 70 sommen.
   Ze had er 65 goed.
   Ze had er ..... fout.

   ○ 5 *t op 10*
   ○ 25 *v op 5*
   ○ 15 *z op 3*

6. Wouter wil een bal kopen van € 5, 90.
   Hij heeft 4 euro, 2 munten van 50 eurocent
   en 9 munten van 10 eurocent.
   Hij komt ..... eurocent tekort.

   ○ 0 *h op 8*
   ○ 29 *b op 4*
   ○ 34 *f op 6*

7. Iedere dag doet Ewout 6 munten van 10 eurocent in zijn spaarpot.
   Na een week zitten er ..... munten van 10 eurocent in zijn spaarpot.

   ○ 48 *o op 7*
   ○ 36 *r op 12*
   ○ 42 *g op 4*

8. Aan een weg staan 80 bomen. Er zijn 45 kastanjebomen.
   De andere bomen zijn iepen. Er staan ..... iepen.

   ○ 125 *r op 9*
   ○ 45 *t op 8*
   ○ 35 *s op 6*

9. Ik koop zes postzegels van 60 eurocent.
   Ik geef vier euro. Ik krijg ..... eurocent terug.

   ○ 60 *r op 8*
   ○ 40 *e op 11*
   ○ 80 *o op 5*



10. In een schrift zijn 36 bladzijden.
    13 bladzijden zijn vol.
    Hoeveel bladzijden zijn leeg?

    ○ 23 *a op 2*
    ○ 49 *b op 9*
    ○ 26 *c op 10*

11. Van 60 sommen heeft Jan er 12 fout gemaakt.
    Jan heeft ..... sommen goed.

    ○ 72 *f op 12*
    ○ 48 *c op 7*
    ○ 49 *g op 6*

12. Matthijs maakt 55 sommen. Hij maakt er 20 fout.
    Hij maakt ..... sommen goed.

    ○ 35 *e op 5*
    ○ 75 *p op 7*
    ○ 25 *l op 11*

1	2	3	4	5	6	7	8	9	10	11	12	vraag
○	○	○	○	○	○	○	○	○	○	○	○	antwoord

1. In een klas zitten 42 kinderen. Er zijn 18 jongens.
Er zijn ..... meisjes.

○ 24 *o op 1*
○ 26 *u op 2*
○ 60 *a op 4*

2. Je koopt 5 postzegels van 80 eurocent
en 8 postzegels van 50 eurocent.
Je moet ..... eurocent betalen.

○ 400 *a op 8*
○ 800 *e op 5*
○ 280 *i op 2*

3. Vader is 40 jaar. Moeder is 36 jaar.
Vader is ..... jaar ouder dan moeder.

○ 14 *s op 9*
○ 4 *t op 11*
○ 40 *l op 3*

4. Moeder is 36 jaar.
Marie is 20 jaar jonger dan haar moeder.
Marie is ..... jaar.

○ 20 *p op 1*
○ 16 *r op 6*
○ 56 *v op 12*

5. Over anderhalf uur is het half drie.
Nu is het ..... .

○ 1 uur *n op 9*
○ 2 uur *m op 1*
○ 3 uur *p op 10*

6. Hermien heeft een doos met 44 pennen.
De helft wil niet meer schrijven.
Hoeveel pennen willen nog wel schrijven?

○ 24 *v op 11*
○ 22 *e op 12*
○ 27 *a op 5*

7. Vijftig postzegels van een euro kosten evenveel
als ..... postzegels van een halve euro.

○ 200 *k op 3*
○ 25 *p op 6*
○ 100 *l op 7*

8. 75 is ..... meer dan 56.

○ 19 *s op 3*
○ 11 *t op 7*
○ 9 *u op 6*

9. Lars heeft 100 knikkers. Hij verliest er 17.
Nu heeft hij nog ..... knikkers.

○ 87 *o op 5*
○ 83 *t op 4*
○ 93 *w op 8*

10. Ik koop iets lekkers voor 185 eurocent.
Ik geef ..... eurocent en krijg daarom
15 eurocent terug.

○ 165 *i op 11*
○ 200 *g op 10*
○ 170 *m op 12*

11. Ik koop een springtouw van € 2,75
Ik geef drie euro en krijg dus ..... eurocent terug.

○ 35 *a op 7*
○ 25 *e op 8*
○ 50 *u op 9*

12. In de groep zitten 17 meisjes en 14 jongens.
In de groep zitten ..... kinderen.

○ 39 *d op 4*
○ 31 *o op 2*
○ 23 *b op 10*

vraag	1	2	3	4	5	6	7	8	9	10	11	12
antwoord												

Redactiesommen A - blad 6

1. Van 2 januari tot 25 januari duurt ..... dagen.
   - ○ 22 *a op 1*
   - ○ 27 *i op 4*
   - ○ 23 *e op 2*

2. In een boekje zitten 40 bladzijden.
   Ik lees iedere dag 8 bladzijden.
   Na ..... dagen heb ik het boekje uit.
   - ○ 12 *k op 3*
   - ○ 5 *l op 6*
   - ○ 15 *m op 4*

3. Ik koop 3 doosjes met elk 14 kleurtjes.
   Mijn broertje krijgt de helft.
   Ik hou nog ..... kleurtjes over.
   - ○ 21 *e op 10*
   - ○ 14 *d op 11*
   - ○ 42 *c op 5*

4. De helft van 50 is ..... meer
   dan de helft van 30.
   - ○ 20 *m op 6*
   - ○ 10 *n op 1*
   - ○ 25 *o op 12*

5. Kleine zus is 78 cm lang.
   Kleine broer is 90 cm lang.
   Broer is ..... cm langer dan zus.
   - ○ 12 *a op 7*
   - ○ 22 *t op 7*
   - ○ 18 *s op 10*

6. Joris krijgt 21 kersen.
   Piet heeft 39 kersen.
   Jaap heeft 11 kersen.
   Samen hebben ze ..... kersen.
   - ○ 71 *e op 4*
   - ○ 79 *g op 2*
   - ○ 49 *f op 3*

7. Ik heb al 2 munten van 50 eurocent, 3 munten van 10 eurocent en
   5 munten van 5 eurocent en 1 euro in mijn spaarpot.
   Dat is samen ..... eurocenten
   - ○ € 2,55 *r op 11*
   - ○ € 1,85 *c op 1*
   - ○ € 2,35 *b op 12*

8. In een boek zitten 83 bladzijden.
   Ik heb er al 47 bladzijden uit.
   Nu moet ik nog ..... bladzijden lezen.
   - ○ 44 *p op 8*
   - ○ 65 *s op 6*
   - ○ 36 *r op 5*

9. 56 en 4 is samen evenveel als 52 en ..... .
   - ○ 8 *n op 8*
   - ○ 6 *o op 5*
   - ○ 60 *p op 9*

10. Annie heeft 46 munten van 10 eurocent.
    Ze geeft de helft uit.
    Nu heeft ze nog 2 euro en ..... eurocenten.
    - ○ 23 *f op 10*
    - ○ 30 *d op 9*
    - ○ 13 *c op 7*

11. Van 15 mei tot 30 mei duurt ..... dagen.
    - ○ 25 *p op 11*
    - ○ 15 *s op 12*
    - ○ 45 *b op 9*

12. Van 3 januari tot 24 januari duurt ..... dagen.
    - ○ 21 *d op 3*
    - ○ 27 *v op 8*
    - ○ 17 *f op 12*

1	2	3	4	5	6	7	8	9	10	11	12	vraag
○	○	○	○	○	○	○	○	○	○	○	○	antwoord

Ben je klaar?
Vraag dan toets 1 van deel A



1. Wim heeft 8 knikkers. Jan heeft er 5 keer zoveel.
Jan heeft ..... knikkers.

○ 48 *a op 6*
○ 40 *z op 1*
○ 35 *w op 2*

2. Jaap heeft 37 knikkers. Klaas heeft er 8 meer.
Hoeveel knikkers hebben ze samen?

○ 82 *t op 5*
○ 46 *r op 3*
○ 29 f op 1

3. Jan gooit op de sjoelbak 38 en Kees 42.
Hoeveel hebben ze samen gegooid?

○ 4 *l op 5*
○ 80 *i op 8*
○ 70 *m op10*

4. Op een tafel liggen 2 munten van 20 eurocent,
1 munt van 10 eurocent en 3 munten van 5 eurocent.
Er ligt samen ..... eurocent op tafel.

○ 65 *r op 10*
○ 50 *b op 7*
○ 45 *s op 12*

5. Jan heeft een euro. Lies heeft 25 eurocent minder.
Samen hebben ze ..... .

○ € 0,75 *d op 8*
○ € 1,25 *o op 1*
○ € 1,75 *w op 2*

6. Henk heeft een euro en 5 munten van 10 eurocent.
Gerrit heeft 25 eurocent minder.
Samen hebben ze ..... .

○ € 2,75 *n op 12*
○ € 2,25 *b op 10*
○ € 1,75 *a op 11*

7. Willem heeft € 3,50
Rutmer heeft 50 eurocent minder. Samen hebben ze .....

○ € 6,50 *e op 9*
○ € 7,50 *p op 4*
○ € 7,00 *l op 11*

8. Een kaart kost 9 euro.
3 kaarten kosten ..... euro minder dan € 30.

○ 9 *a op 7*
○ 7 *o op 2*
○ 3 *e op 4*

9. 36 eurocent is ..... eurocent minder dan € 0,50

○ 14 *l op 7*
○ 11 *z op 5*
○ 24 *v op 4*

10. Annie heeft € 1,25
Tinie heeft € 1
Tinie heeft ..... eurocent
minder dan Annie.

○ 100 *l op12*
○ 25 *e op11*
○ 15 *a op 9*

11. Jan is Jarig op 19 oktober.
Wim is jarig op 27 oktober.
Wim is ..... dagen later jarig.

○ 8 *k op 6*
○ 6 *t op 3*
○ 12 *u op 8*

12. Johan wordt op 12 september 9 jaar. Theo wordt 10 september 8 jaar.
Wim wordt 9 april 8 jaar. Wie is het oudste van de drie?

○ Johan *e op 3*
○ Theo *o op 5*
○ Wim *b op 9*

vraag	1	2	3	4	5	6	7	8	9	10	11	12
antwoord												

Redactiesommen A - blad 8

1. Onze groep heeft 38 leerlingen. We gaan wandelen.
   Hoeveel rijen van 4 kunnen er gemaakt worden?

   ○ 36 *b op 1*
   ○ 34 *c op 6*
   ○ 9 *e op 5*



2. We hebben 12 konijnen. In ieder hok zitten er 3.
   We hebben ..... hokken met konijnen.

   ○ 36 *a op 5*
   ○ 9 *u op 12*
   ○ 4 *e op 9*

3. Moeder heeft 12 sinaasappels gekocht.
   Iedere dag eet ze er één op.
   Na een week heeft ze nog ..... sinaasappels.

   ○ 6 *i op 4*
   ○ 5 *e op 11*
   ○ 7 *o op 10*

4. Karel heeft drie euro. Wim heeft dertig eurocent meer.
   Wim heeft ..... eurocent.

   ○ 60 *b op 7*
   ○ 270 *h op 2*
   ○ 330 *d op 3*

5. In onze groep zitten 40 leerlingen.
   We kunnen er 5 rijen
   van ..... van maken.

   ○ 6 *f op 3*
   ○ 8 *l op 10*
   ○ 7 *k op 11*

6. Vader weegt 80 kilo.
   Moeder weegt 69 kilo.
   Moeder is ..... kilo
   lichter dan vader.

   ○ 21 *m op 2*
   ○ 19 *o op 4*
   ○ 11 *s op 6*

7. Een touw is twee meter lang.
   Ik knip er dertig centimeter af.
   Nu is het touw nog ..... cm lang.

   ○ 270 *z op 8*
   ○ 170 *d op 4*
   ○ 230 *n op 3*

8. Henk haalt 5 stuiterballen van € 0,40 per stuk.
   Hij geeft 5 euro. Hij krijgt ..... terug.

   ○ € 2,00 *w op 9*
   ○ € 3,00 *a op 2*
   ○ € 4,60 *i op 5*

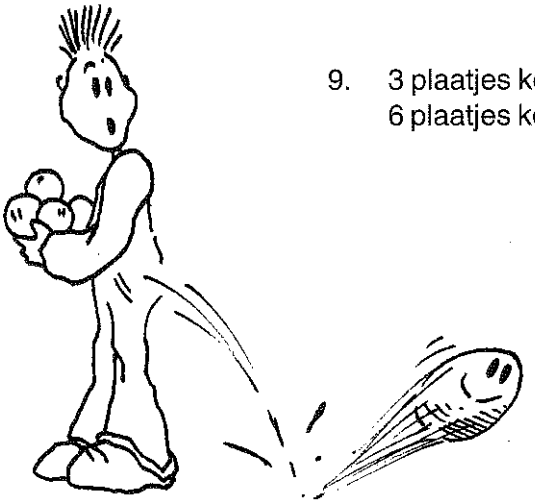

9. 3 plaatjes kosten 60 eurocent.
   6 plaatjes kosten ..... eurocent.

   ○ 120 *o op 8*
   ○ 20 *l op 6*
   ○ 112 *p op 10*

10. In een groep van 34 leerlingen
    zitten 15 jongens.
    Er zijn ..... meisjes.

    ○ 21 *c op 11*
    ○ 19 *n op 12*
    ○ 29 *m op 9*

11. 1 dm is ..... cm korter dan 1 meter.

    ○ 10 *h op 4*
    ○ 90 *t op 7*
    ○ 9 *r op 8*

12. 5 dm is ..... cm langer dan 3 dm.

    ○ 20 *p op 1*
    ○ 2 *r op 7*
    ○ 8 *z op 12*

1	2	3	4	5	6	7	8	9	10	11	12	vraag
○	○	○	○	○	○	○	○	○	○	○	○	antwoord

1. Annie en Ellie verdelen eerlijk 18 appels.
Ellie krijgt ..... appels.

○ 19 *m op 1*
○ 36 *s op 2*
○ 9 *r op 3*

2. Karin heeft € 0,75 Wil heeft op 5 eurocent na een euro.
Wil heeft ..... eurocent meer dan Karin.

○ 25 *p op 5*
○ 20 *o op 7*
○ 15 u op 9

3. Gemma heeft 6 munten van 5 eurocent.
Karel heeft 3 munten van 5 eurocenten
Samen hebben ze ..... eurocent.

○ 75 *b op 3*
○ 90 *n op 2*
○ 45 *d op 6*

4. Floor heeft twee euro. Ze koopt een zakje
snoep voor €1,75. Nu heeft ze nog ..... eurocent over.

○ 25 *l op 10*
○ 35 *e op 12*
○ 50 *r op 4*

5. Suzanne haalt vijf pakjes kauwgom
van 80 eurocent per pakje.
Zij geeft € 5 en krijgt ..... terug.

○ € 4,00 *w op 4*
○ € 4,20 *v op 5*
○ € 1,00 *g op 12*

6. 43 is ..... meer dan 27.

○ 20 *m op 7*
○ 16 *w op 1*
○ 14 *ij op 3*

7. Voor 8 kinderen koopt moeder een verrassing van
6 euro per stuk. Moeder geeft een briefje van
50 euro. Ze krijgt ..... euro terug.

○ 7 *a op 1*
○ 6 *h op 6*
○ 2 *r op 9*

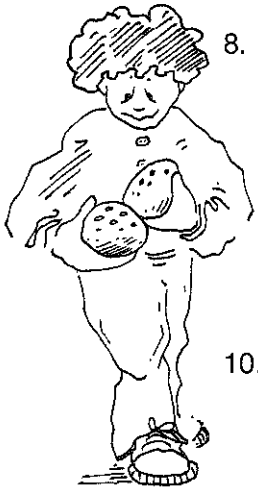

8. In een grote tuin staan 35 bomen.
Ze staan in rijen van 7.
Er zijn ..... rijen bomen in de tuin.

○ 5 *e op 2*
○ 7 *h op 6*
○ 8 *s op 7*

9. Gerard moet voor moeder twee
broodjes van € 1,20 halen.
Hij krijgt drie euro mee.
Hij krijgt ..... eurocent terug.

○ 80 *l op 8*
○ 60 *o op 11*
○ 180 *h op 7*

10. Bij ons thuis eet vader 5 boterhammen,
moeder 4 en Jan en Piet elk 3.
We eten samen ..... boterhammen op.

○ 18 *s op 9*
○ 12 *t op 8*
○ 15 *l op 5*

11. We krijgen alle vier een koek bij het glaasje limonade.
Een koek kost 60 eurocent. Moeder heeft ..... eurocent voor
de vier koeken betaald.

○ 120 *k op 9*
○ 300 *g op 10*
○ 240 *o op 8*

12. In een leslokaal zitten 4 rijen leerlingen. In de eerste 3 rijen zitten
ieder 8 kinderen; in de vierde rij zitten 10 kinderen.
In het leslokaal zitten ..... kinderen.

○ 18 *i op 10*
○ 24 *u op 11*
○ 34 *e op 4*

vraag	1	2	3	4	5	6	7	8	9	10	11	12
antwoord												

Redactiesommen A - blad 10

1. Ik verstuur twee pakjes en twee brieven. Op de pakjes moeten postzegels van 2 euro en op de brieven postzegels van 150 eurocent. Voor het versturen moet ik ..... euro betalen.
   - ○ 6 *b op 1*
   - ○ 5 *p op 2*
   - ○ 7 *g op 3*

2. Mijn liniaal is 30 cm lang. Dat is ..... dm korter dan een meter.
   - ○ 3 *s op 6*
   - ○ 7 *l op 5*
   - ○ 70 *m op 4*

3. 18 jongens gaan naar het zwembad. Ze kunnen lopen in 9 rijen van 2 of in 6 rijen van ..... .
   - ○ 2 *n op 7*
   - ○ 3 *o op 8*
   - ○ 4 *p op 9*

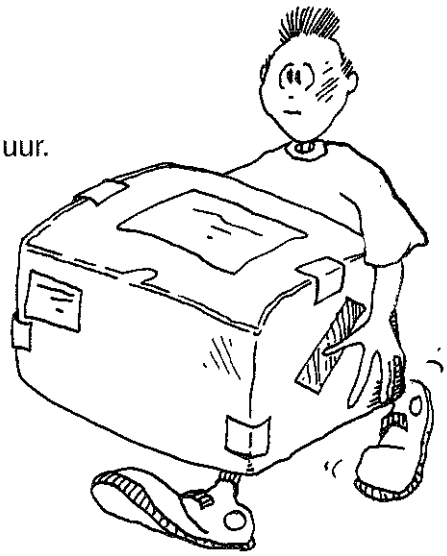

4. Johan gaat naar school van 9 uur tot 12 uur. 's Middags van 2 tot 4 uur. Dat is per dag ..... uur.
   - ○ 4 *d op 3*
   - ○ 5 *e op 4*
   - ○ 6 *f op 8*

5. Een springtouw is twee meter lang. Drie touwen zijn samen ..... meter korter dan 10 meter.
   - ○ 4 *j op 10*
   - ○ 8 *h op 2*
   - ○ 6 *i op 9*

6. Anton krijgt zes euro zakgeld. Hij koopt een pakje voor 340 eurocent. Dan heeft hij nog .... eurocent over.
   - ○ 160 *s op 4*
   - ○ 260 *t op 9*
   - ○ 360 *u op 10*

7. Een boer heeft 110 kippen. Hij verkoopt er 20 en koopt er 15 jonge kippen bij. Nu heeft de boer ..... kippen.
   - ○ 125 *t op 5*
   - ○ 95 *g op 4*
   - ○ 105 *p op 6*

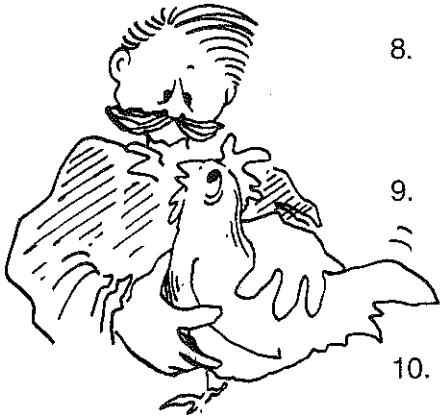

8. 's Middags 2 uur is ..... uur later dan 's morgens 9 uur.
   - ○ 5 *e op 11*
   - ○ 7 *v op 9*
   - ○ 11 *w op 5*

9. Marije heeft 55 blokken. Zij bouwt een toren van 5 blokken. Marije kan zo ..... torens van 5 blokken maken.
   - ○ 11 *o op 2*
   - ○ 2 *p op 5*
   - ○ 10 *a op 8*

10. Precies tussen 260 en 290 ligt ..... in.
    - ○ 230 *k op 10*
    - ○ 275 *s op 12*
    - ○ 280 *d op 1*

11. Marrit eet iedere dag 7 boterhammen. In een week eet zij ..... boterhammen.
    - ○ 14 *l op 12*
    - ○ 49 *o op 7*
    - ○ 42 *e op 8*

12. Jan Daniël doet op de computer iedere dag 9 spelletjes behalve op zondag. In een week heeft hij ..... spelletjes op de computer gedaan.
    - ○ 63 *b op 11*
    - ○ 48 *ij op 2*
    - ○ 54 *v op 1*

1	2	3	4	5	6	7	8	9	10	11	12	vraag
○	○	○	○	○	○	○	○	○	○	○	○	antwoord

1. Een groenteman heeft 300 sinaasappels.
Hij verkoopt er aan Jan 40,
aan Piet 40 en aan Kees 40.
Hij heeft er nu nog ..... over.

○ 120 *e op 2*
○ 280 *i op 3*
○ 180 *a op 1*

2. Sjaak heeft € 0,15.
Kees heeft 50 eurocent meer.
Samen hebben ze ..... eurocent
minder dan een euro.

○ 80 *e op 3*
○ 20 *o op 11*
○ 65 *u op 12*

3. 380 is ..... meer dan 230.

○ 150 *h op 4*
○ 160 *s op 10*
○ 250 *t op 5*

4. De helft van 400
is ..... minder dan 230.

○ 70 *k op 1*
○ 30 *o op 9*
○ 170 *h op 2*

5. Een touw is 80 cm lang. Ik knip er 46 cm af.
Nu is het touw nog ..... cm lang.

○ 24 *l op 1*
○ 34 *r op 12*
○ 46 *z op 6*

6. Op de klok is het kwart over twee.
Hij loopt een half uur voor.
Het is in werkelijkheid dus ..... .

○ kwart voor 2 *t op 10*
○ kwart voor 3 *s op 11*
○ half 3 *b op 4*

7. Langs onze straat staan 8 huizen. De huizen zijn 12 meter breed.
De huizen zijn tegen elkaar aan gebouwd.
De straat is ..... meter lang.

○ 82 *ij op 7*
○ 86 *m op 4*
○ 96 *a op 5*



8. Een bakker verkoopt iedere dag
gemiddeld 24 taartjes.
In 4 dagen verkoopt hij ..... taartjes.

○ 100 *t op 8*
○ 84 *s op 5*
○ 96 *n op 6*

9. Vader koopt een tijdschrift voor drie euro en
een doosje dropjes voor de hoest voor € 1,75
Hij moet nu ..... betalen.

○ € 2,25 *k op 9*
○ € *4,25* *a op 2*
○ € *4,75* *b op 7*

10. Van 's morgens 8 uur tot 's middags 2 uur duurt ..... uur.

○ 6 *m op 8*
○ 12 *f op 9*
○ 16 *d op 10*

11. Henk heeft 80 knikkers. Eerst wint hij er 9, maar later
verliest hij er 26. Nu heeft hij nog ..... knikkers.

○ 52 *w op 12*
○ 63 *g op 7*
○ 66 *a op 6*

12. Ik denk aan een getal. Het is 5 meer dan de helft van 40.
Dat getal is ..... .

○ 25 *n op 3*
○ 45 *c op 8*
○ 85 *h op 11*

vraag	1	2	3	4	5	6	7	8	9	10	11	12
antwoord												

Redactiesommen A - blad 12

1. Petra en Matthea verdelen één euro en dertig eurocent.
   Ieder krijgt ..... eurocent.

   ○ 80 *a op 9*
   ○ 75 *u op 3*
   ○ 65 *e op 6*

2. Een stuk lint is een meter lang. Ik knip er een decimeter af.
   Nu is het lint nog ..... cm lang.

   ○ 9 *p op 3*
   ○ 90 *s op 1*
   ○ 19 *k op 2*

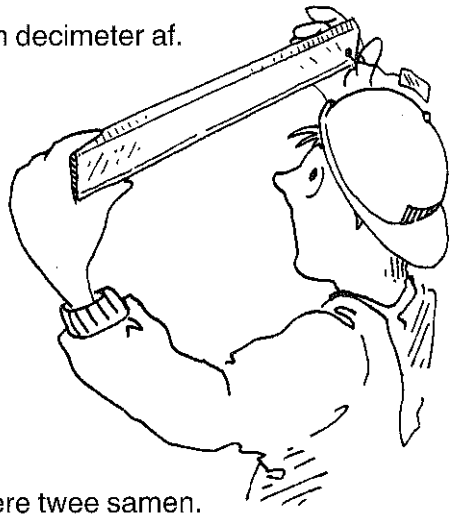

3. Piet wil een liniaal kopen van € 2,30
   Hij heeft 45 eurocent te kort,
   want hij heeft maar ..... eurocent bij zich.

   ○ 185 *l op 9*
   ○ 275 *r op 10*
   ○ 195 *s op 7*

4. Precies tussen 60 en 90 ligt ..... .

   ○ 30 *ij op 1*
   ○ 75 *g op 5*
   ○ 150 *f op 11*

5. Ik heb drie getallen: 50, 70 en 90.
   Het grootste getal is ..... minder dan de andere twee samen.

   ○ 30 *a op 10*
   ○ 50 *d op 11*
   ○ 70 *k op 12*

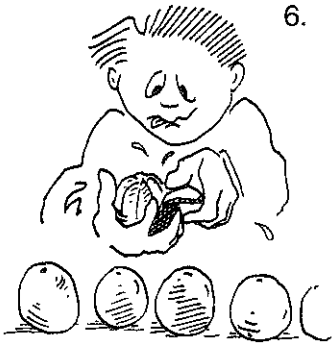

6. Ik heb 24 sinaasappels. Ik leg ze op tafel.
   Ik kan er ..... rijen van 8 van leggen.

   ○ 2 *c op 5*
   ○ 3 *r op 7*
   ○ 4 *h op 6*

7. Van 2 juni tot 2 juli duurt ..... dagen.

   ○ 28 *v op 8*
   ○ 30 *l op 2*
   ○ 31 *m op 4*

8. Ik denk aan een getal.
   Het is 10 meer dan de helft van 100.
   Dat getal is ..... .

   ○ 40 *w op 10*
   ○ 50 *s op 6*
   ○ 60 *i op 3*

9. Ik ben ..... jaar oud. Over 25 jaar ben ik 37 jaar.

   ○ 9 *o op 11*
   ○ 10 *z op 7*
   ○ 12 *p op 8*

10. Johan is 9 jaar. Zijn vader is 4 x zo oud.
    Samen zijn ze ..... jaar oud.

    ○ 45 *n op 11*
    ○ 32 *a op 8*
    ○ 36 *o op 12*

11. Vader is 38 jaar. Moeder is 3 jaar jonger.
    Jan is 25 jaar jonger dan moeder. Hoe oud is Jan?

    ○ 13 *f op 6*
    ○ 10 *n op 4*
    ○ 16 *v op 9*

12. Een boer heeft 250 kippen. Hij verkoopt er eerst 50, daarna nog eens 80.
    Nu heeft die boer nog ..... kippen over.

    ○ 120 *t op 12*
    ○ 220 *u op 10*
    ○ 280 *i op 7*

1	2	3	4	5	6	7	8	9	10	11	12	vraag
○	○	○	○	○	○	○	○	○	○	○	○	antwoord

Ben je klaar?
Vraag dan toets 2
van deel A



1. Jij koopt een stift van 175 eurocent.
   Je geeft € 3 en krijgt ..... eurocent terug.
   - ○ € 2,75 *u op 5*
   - ○ € 1,25 *o op 2*
   - ○ € 1,25 *h op 3*

2. Kleine Jan is 2 jaar en 4 maanden oud.
   Jan is ..... maanden oud.
   - ○ 24 *k op 4*
   - ○ 28 *l op 6*
   - ○ 26 *r op 3*

3. Een plank is vier meter lang.
   Je kunt er ..... plankjes van 50 cm van zagen.
   - ○ 20 *p op 9*
   - ○ 8 *d op 10*
   - ○ 12 *d op 3*

4. 3 munten van 50 eurocent, 4 munten van 20 eurocent,
   5 munten van 10 eurocent en 1 munt van 2 euro is
   samen .....
   - ○ € 3,80 *d op 6*
   - ○ € 4,80 *k op 7*
   - ○ € 2,82 *a op 8*

5. Klaas is 7 jaar. Vader is 5 x zo oud.
   Samen zijn ze ..... jaar.
   - ○ 35 *o op 7*
   - ○ 42 *e op 11*
   - ○ 32 *i op 1*



6. Willie weegt 40 kilo. Gerrie weegt 12 kilo minder.
   Samen wegen ze ..... kilo.
   - ○ 68 *s op 1*
   - ○ 52 *n op 10*
   - ○ 38 *t op 2*

7. Een touw is 320 cm lang. Ik knip er 60 cm af.
   Nu is het touw nog ..... cm lang.
   - ○ 260 *e op 8*
   - ○ 320 *c op 4*
   - ○ 280 *h op 11*

8. Moeder koopt 3 kilo fruit van 3 euro p/k
   en druiven voor € 2,50.
   Van 20 euro krijgt ze ..... terug.
   - ○ € 14,50 *i op 1*
   - ○ € 5,50 *d op 12*
   - ○ € 7,50 *u op 4*

9. Welk getal is 5 minder dan de helft van 50?
   - ○ 15 *a op 10*
   - ○ 20 *r op 12*
   - ○ 25 *p op 7*

10. Vader is 42 jaar. Moeder is 4 jaar jonger.
    Moeder is ..... jaar.
    - ○ 38 *i op 5*
    - ○ 46 *n op 6*
    - ○ 36 *b op 11*

11. Welk getal is 12 meer dan de helft van 30?
    - ○ 36 *k op 12*
    - ○ 42 *c op 5*
    - ○ 27 *l op 9*

12. Bertus is 138 cm lang. Dat is ..... centimeter meer dan een meter.
    - ○ 38 *c op 2*
    - ○ 62 *o op 8*
    - ○ 138 *b op 9*

vraag	1	2	3	4	5	6	7	8	9	10	11	12
antwoord												

Redactiesommen A - blad 14

1. Josien is jarig. Ze wil trakteren. Er zijn 30 kinderen in haar groep.
   Ze wil ieder kind 3 snoepjes geven. Ze moet ..... snoepjes kopen.
   - ○ 30 *g op 7*
   - ○ 60 *v op 9*
   - ○ 90 *n op 1*

2. Op een postkantoor worden 15 zegels van een euro verkocht.
   Dat is voor ..... euro.
   - ○ 15 *o op 7*
   - ○ 5 *g op 8*
   - ○ 25 *f op 9*

3. In een leslokaal staan de tafels en stoelen in rijen.
   Ze staan in 3 rijen van 5 en dan nog 2 rijen van 6.
   Er kunnen ..... kinderen zitten.
   - ○ 28 *a op 2*
   - ○ 27 *u op 3*
   - ○ 33 *s op 8*

4. In 6 dagen maakte Johan 54 sommen.
   Hij heeft elke dag gemiddeld ..... sommen gemaakt.
   - ○ 7 *c op 10*
   - ○ 8 *i op 11*
   - ○ 9 *g op 12*

5. Jaap heeft 130 meter vliegertouw.
   Hij geeft de helft aan Henk.
   Nu heeft hij nog ..... meter over.
   - ○ 55 *p op 11*
   - ○ 65 *e op 8*
   - ○ 115 *b op 10*

6. Piet moet 540 meter lopen van huis naar school.
   Wim moet 785 meter lopen.
   Wim woont ..... meter verder van school dan Piet.
   - ○ 315 *a op 12*
   - ○ 145 *o op 1*
   - ○ 245 *e op 2*

7. Welk getal is 5 meer dan de helft van 160?
   - ○ 165 *u op 5*
   - ○ 85 *l op 6*
   - ○ 75 *k op 7*

8. Karin geeft 25 kinderen elk 5 knikkers.
   Ze heeft ..... knikkers weggegeven.
   - ○ 75 *o op 6*
   - ○ 125 *n op 11*
   - ○ 150 *e op 4*

9. Ben heeft 3 euro, 2 munten van 2 euro, 4 munten van € 0,50 en
   2 munten van € 0,05 Matthijs heeft 2 euro, 4 munten van € 0,20 en
   9 munten van € 0,10 Matthijs heeft ..... minder dan Ben.
   - ○ € 6,30 *c op 4*
   - ○ € 5,40 *b op 5*
   - ○ € 3,70 *m op 6*

10. Maarten verdient in een uur 7 euro. Piet € 5,70
    Ze werken twee uur. Samen hebben ze dan € ..... verdiend.
    - ○ € 13,70 *h op 1*
    - ○ € 25,70 *g op 3*
    - ○ € 25,40 *d op 9*

11. Cato is 5 jaar jonger dan Marie. Marie is 14 jaar.
    Opa Joost is 80 jaar. Zijn zoon is 48.
    Samen zijn ze ..... jaar.
    - ○ 147 *g op 3*
    - ○ 151 *i op 10*
    - ○ 152 *d op 12*

12. Een kind van 78 cm lang moet nog ..... cm groeien
    om één meter te worden.
    - ○ 18 *r op 2*
    - ○ 22 *s op 4*
    - ○ 32 *t op 5*

1	2	3	4	5	6	7	8	9	10	11	12	vraag
○	○	○	○	○	○	○	○	○	○	○	○	antwoord



1. In de eerste drie lokalen van een school zitten elk 28 kinderen. In de andere drie lokalen zitten elk 30 kinderen. Er gaan ..... kinderen naar die school.
   - ○ 158 *a op 4*
   - ○ 116 *m op 1*
   - ○ 174 *n op 2*

2. Een weekblad kost een € 1,15 per week. In 6 weken kost het ..... euro.
   - ○ € *6,80* *t op 8*
   - ○ € *6,70* *s op 6*
   - ○ € *6,90* *r op 5*

3. In drie dagen verdient Annejoke 75 euro. In vijf dagen verdient ze ..... euro.
   - ○ 100 *u op 3*
   - ○ 125 *b op 9*
   - ○ 375 *v op 10*

4. Dertig kinderen gaan in een rij lopen met z'n drieën naast elkaar. Er zijn ..... rijen.
   - ○ 15 *w op 2*
   - ○ 10 *o op 11*
   - ○ 90 *z op 9*

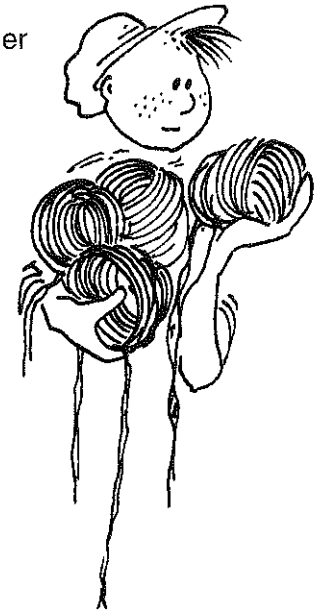

5. In een trein zitten 200 reizigers. Bij een station stappen er 20 reizigers uit, maar stappen er ook 28 in. Nu zijn er ..... reizigers in die trein.
   - ○ 248 *p op 7*
   - ○ 192 *b op 2*
   - ○ 208 *o op 1*

6. Welk getal is 3 minder dan de helft van 60?
   - ○ 57 *o op 5*
   - ○ 33 *u op 3*
   - ○ 27 *z op 6*

7. Ik koop vier rollen touw voor 4 euro. Eén rol touw kost ..... eurocent.
   - ○ 100 *e op 7*
   - ○ 120 *a op 11*
   - ○ 260 *i op 8*

8. Frits wil een boekje kopen van € 4,80. Hij heeft maar 3 euro, 4 munten van 20 eurocent en en 2 munten van 10 eurocent Hij komt ..... eurocent tekort.
   - ○ 150 *p op 1*
   - ○ 100 *o op 10*
   - ○ 90 *n op 12*



9. Aan een weg staan 240 bomen. Er zijn 85 bomen ziek. Deze bomen worden gekapt. Men vergeet nieuwe bomen aan te planten. Nu staan er nog ..... bomen.
   - ○ 155 *t op 12*
   - ○ 165 *d op 7*
   - ○ 185 *k op 10*

10. Tineke heeft 120 snoepjes. In haar groep zitten 40 kinderen. Ze kan alle kinderen ..... snoepjes geven.
    - ○ 2 *op 9*
    - ○ 5 *a op 5*
    - ○ 3 *e op 4*

11. Hoeveel is de helft van 180 meer dan 80?
    - ○ 90 *l op 11*
    - ○ 10 *e op 8*
    - ○ 50 *h op 4*

12. Hoeveel is 145 minder dan het dubbele van 75?
    - ○ 5 *d op 3*
    - ○ 75 *a op 6*
    - ○ 70 *u op 12*

vraag	1	2	3	4	5	6	7	8	9	10	11	12
antwoord												

Redactiesommen A - blad 16

1. Cornelis heeft € 1,70. Hij wisselt alles in voor munten van 5 eurocent.
Hij krijgt er ..... munten voor.

○ 27 *b op 4*
○ 17 *h op 2*
○ 34 *a op 7*

2. In een tuin staan 3 rijen appelbomen en 2 rijen perebomen.
Op iedere rij staan 6 bomen. In die tuin staan ..... bomen.

○ 20 *c op 10*
○ 30 *m op 1*
○ 36 *p op 6*



3. In een garage kunnen 3 rijen van 6 auto's staan.
Er staan 21 auto's voor de deur.
Hoeveel kunnen er niet in de garage?

○ 15 *b op 11*
○ 18 *u op 3*
○ 3 *d op 9*

4. Iemand moet een stapel van 400 stenen wegrijden.
Hij kan er 40 op een kruiwagen houden.
Hij heeft 6 keer gereden. Er liggen nog ..... stenen.

○ 320 *k op 7*
○ 160 *a op 8*
○ 260 *g op 12*

5. Jan had een potlood van 2 dm. Hij slijpt er 3 cm af.
Nu is het potlood nog ..... cm lang.

○ 27 *g op 12*
○ 23 *i op 2*
○ 17 *e op 3*

6. De helft van 70 is ..... minder dan
de helft van 170.

○ 50 *j op 10*
○ 100 *m op 5*
○ 80 *n op 1*

7. Een tuinman koopt 36 bomen.
Hij kan hiermee ..... rijen van 9 bomen planten.

○ 7 *ij op 3*
○ 4 *e op 11*
○ 8 *g op 6*



8. De klok wijst drie minuten voor twaalf aan.
De klok loopt drie minuten achter.
Over 10 minuten is het ..... .

○ 10 min over12 *l op 4*
○ 1 min over 12 *o op 7*
○ 21 min over12 *u op 5*

9. In 5 bussen van 6 liter gaat evenveel
als in 3 bussen van ..... liter.

○ 4 *t op 9*
○ 10 *s op 12*
○ 12 *j op 8*

10. In 4 bussen van 9 liter gaat evenveel als in 2 bussen van ..... liter.

○ 5 *c op 10*
○ 18 *e op 2*
○ 19 *b op 9*

11. In 1 emmer gaat 15 liter water.
In 5 emmers gaat ..... liter.

○ 75 *r op 6*
○ 3 *f op11*
○ 55 *ij op 4*

12. In een autobus gaan 40 mensen.
Er gaan 240 mensen op reis.
Er moeten ..... bussen besteld worden.

○ 12 *s op 8*
○ 8 *c op 10*
○ 6 *d op 5*

1	2	3	4	5	6	7	8	9	10	11	12	vraag
○	○	○	○	○	○	○	○	○	○	○	○	antwoord

1. Kees heeft 65 eurocent. Klaas heeft een kwart euro meer.
Klaas heeft ..... eurocent.

○ 90 *t op 4*
○ 85 *o op 6*
○ 155 *p op 8*

2. Fien heeft èèn euro. Trui heeft € 0,50 meer.
Trui heeft ..... eurocent.

○ 50 *s op 9*
○ 150 *a op 7*
○ 125 *m op 2*

3. Een lijn is 30 cm lang. Ik maak de lijn 13 cm korter.
Nu is de lijn ..... cm.

○ 27 *o op 6*
○ 23 *p op 8*
○ 17 *i op 11*

4. Ik heb 5 latjes. Elk latje is 7 cm lang.
Samen hebben ze een lengte van ..... cm.

○ 28 *t op 1*
○ 12 *u op 7*
○ 35 *e op 5*

5. Mien heeft 34 knikkers. Ze verliest 8 knikkers.
Nu heeft ze ..... knikkers.

○ 24 *m op 2*
○ 26 *c op 8*
○ 18 *p op 12*

6. Irma heeft 78 knikkers. Ze verliest 39 knikkers en
daarna nog eens 39 knikkers. Hoeveel houdt ze over?

○ 18 *t op 1*
○ 39 *u op 7*
○ 0 *r op 6*

7. Wim begint met 30 knikkers.
Na een spel heeft hij er 53.
Hij heeft ..... knikkers gewonnen.

○ 13 *b op 12*
○ 27 *k op 5*
○ 23 *s op 3*

8. Eerst had Hans 45 knikkers. Nu heeft hij er 54.
Zijn winst is ..... knikkers.

○ 19 *a op 11*
○ 11 *s op 9*
○ 9 *t op 10*

9. Hoe lang duurt het van half 9 's morgens
tot 1 uur 's middags?

○ 3½ uur *k op 5*
○ 4½ uur *l op 1*
○ 8 uur *g op 3*

10. Verminder 94 met 24. De uitkomst is ..... .

○ 70 *g op 12*
○ 78 *a op 11*
○ 74 *n op 10*

11. Vermeerder 131 met 48. De uitkomst is ..... .

○ 179 *h op 9*
○ 73 *s op 10*
○ 83 *k op 4*

12. Vermenigvuldig 6 met 5. De uitkomst is ..... .

○ 11 *g op 3*
○ 30 *ij op 2*
○ 1 *m op 4*

vraag	1	2	3	4	5	6	7	8	9	10	11	12
antwoord												

Redactiesommen A - blad 18

1. Toon heeft € 0,75. Jaap heeft een kwart euro.
   Samen hebben ze .....
   - ○ € 0,50 — *a op 9*
   - ○ € 0,75 — *o op 4*
   - ○ € 1,00 — *s op 1*

2. Er zijn 27 kleurpotloden; drie kinderen verdelen ze.
   Elk krijgt ..... potloden.
   - ○ 7 — *l op 4*
   - ○ 9 — *k op 6*
   - ○ 14 — *n op 10*

3. Verminder 88 met 25. Deel de uitkomst door 7.
   - ○ 10 — *b op 8*
   - ○ 9 — *e op 11*
   - ○ 8 — *c op 9*

4. Dat leesboekje kost zes euro.
   Dit stripboek kost 585 eurocent.
   Het stripboek is dus ..... eurocent goedkoper.
   - ○ 15 — *t op 2*
   - ○ 25 — *h op 3*
   - ○ 20 — *g op 7*

5. Het vijfde deel van 30 is evenveel als de helft van ..... .
   - ○ 6 — *a op 3*
   - ○ 12 — *p op 9*
   - ○ 18 — *e op 7*

6. Ik ga om 11 uur van huis. Ik kom om half één weer thuis.
   Hoe lang ben ik van huis?
   - ○ 1 uur + 15 min — *s op 10*
   - ○ anderhalf uur — *r op 5*
   - ○ 2 uur + 30 min — *m op 8*



7. In een doosje zitten vier potjes verf.
   In zeven van zulke doosjes
   zitten ..... potjes verf.
   - ○ 22 — *n op 12*
   - ○ 11 — *b op 11*
   - ○ 28 — *p op 10*

8. Jaap koopt acht stickers van 40 eurocent per stuk.
   Hij geeft een bankbiljet van 5 euro
   en krijgt ..... eurocent terug
   - ○ 280 — *v op 2*
   - ○ 270 — *ij op 6*
   - ○ 180 — *u op 4*

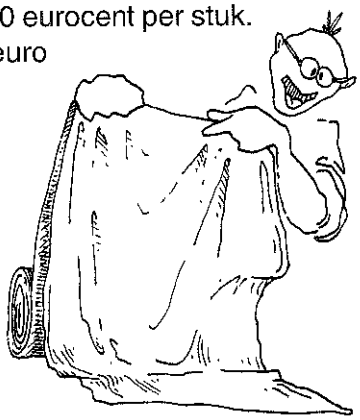

9. Een tiende deel van een euro is ..... eurocent.
   - ○ 50 — *f op 1*
   - ○ 10 — *u op 8*
   - ○ 100 — *g op 12*

10. Het tiende deel van een cm is ..... mm.
    - ○ 10 — *o op 5*
    - ○ 1 — *n op 7*
    - ○ 5 — *a op 11*

11. Het rode lint kost 9 eurocent per meter. Het blauwe lint kost driemaal zoveel.
    Een meter blauw lint kost ..... eurocent.
    - ○ 27 — *l op 12*
    - ○ 18 — *m op 6*
    - ○ 36 — *a op 1*

12. Eerst had Koos 69 knikkers. Hij won er 28 bij. Aan Bert en Joop gaf hij ieder 17 knikkers. Aan Job leende hij 3 knikkers, maar die kreeg hij even later weer terug. Toen had Koos nog ..... knikkers.
    - ○ 97 — *d op 5*
    - ○ 34 — *c op 2*
    - ○ 63 — *u op 3*

1	2	3	4	5	6	7	8	9	10	11	12	vraag
○	○	○	○	○	○	○	○	○	○	○	○	antwoord

Ben je klaar?
Vraag dan toets 3
van deel A



1. € 4,95 is ..... eurocent minder dan een biljet van vijf euro.
   - ○ 15 *u op 4*
   - ○ 5 *t op 3*
   - ○ 105 *s op 9*

2. Ik moet betalen € 1,40. Ik geef een euro,
   een munt van 20 eurocent en
   2 munten van 5 eurocent.
   en dan nog .... eurocent.
   - ○ 10 *j op 6*
   - ○ 20 *f op 2*
   - ○ 15 *ij op 8*



3. Ik moet betalen € 13,25. Ik geef 2 biljetten van 5 euro,
   een munt van 2 euro en 3 munten van € 0,50.
   Ik krijg ..... eurocent terug.
   - ○ 50 *z op 1*
   - ○ 75 *v op 12*
   - ○ 25 *f op 9*

4. Ik moet betalen € 2,95. Ik geef € 2,50.
   Dat is ..... eurocent te weinig.
   - ○ 95 *b op 6*
   - ○ 45 *u op 7*
   - ○ 50 *j op 11*

5. Rie heeft 29 knikkers. Ze deelt met Ger.
   Ger krijgt een knikker minder dan Rie.
   Hoeveel knikkers krijgt Rie?
   - ○ 13 *a op 7*
   - ○ 14 *o op 10*
   - ○ 15 *e op 4*

6. Wim fietst van huis naar oma in 50 minuten.
   Hij gaat van huis om vijf voor half drie. Hij komt aan om ..... .
   - ○ kwart over 3 *r op 5*
   - ○ 5 over 3 *s op 3*
   - ○ 5 over 4 *t op 1*

7. Als het vandaag 3 december is, dan is het
   volgende week ..... december.
   - ○ 13 *o op 3*
   - ○ 11 *p op 9*
   - ○ 10 *f op 8*

8. Het is 3 uur. De klok wijst aan kwart over 3.
   De klok gaat ..... minuten voor.
   - ○ 15 *r op 11*
   - ○ 25 *e op 7*
   - ○ 30 *f op 2*

9. Het is half zeven. Over 20 minuten is het ..... minuten voor 7.
   - ○ 15 *d op 11*
   - ○ 20 *v op 6*
   - ○ 10 *w op 1*

10. Van kwart voor zes tot vijf over zes duurt ..... minuten.
    - ○ 15 *m op 10*
    - ○ 25 *t op 5*
    - ○ 20 *s op 12*



11. Van half 11 tot 12 uur duurt ..... minuten.
    - ○ 120 *t op 5*
    - ○ 90 *e op 10*
    - ○ 60 *m op 12*

12. Wat is het getal dat 40 meer is dan 160?
    - ○ 200 *a op 2*
    - ○ 120 *j op 8*
    - ○ 180 *f op 4*

vraag	1	2	3	4	5	6	7	8	9	10	11	12
antwoord												

Redactiesommen A - blad 20



1. Klaas heeft 130 knikkers. Piet heeft er 35 meer.
   Piet heeft ..... knikkers.
   - ○ 95 *p op 3*
   - ○ 165 *l op 7*
   - ○ 155 *d op 1*

2. Een touwtje is een decimeter lang. Er wordt 8 cm afgeknipt.
   Er blijft ..... cm over.
   - ○ 18 *a op 4*
   - ○ 2 *r op 2*
   - ○ 9 *u op 11*

3. Annie had eerst 89 knikkers. Ze verloor er 27.
   Nu heeft ze ..... knikkers.
   - ○ 63 *v op 3*
   - ○ 52 *w op 7*
   - ○ 62 *l op 9*

4. Hans heeft € 2,50. Hij krijgt er 7 munten van 5 eurocent bij.
   Nu heeft hij € ..... .
   - ○ € 2,57 *f op 10*
   - ○ € 2,85 *s op 12*
   - ○ € 3,20 *g op 2*

5. Vorige week kostte de pot superlijm € 42,00.
   Nu kost zo'n pot € 2,75 meer. De prijs is nu € ..... .
   - ○ € 44,75 *e op 11*
   - ○ € 40,75 *h op 10*
   - ○ € 40,25 *c op 12*

6. De rode bal kost € 2,50. De blauwe is € 0,35 duurder,
   en kost dus € ..... .
   - ○ € 3,20 *a op 5*
   - ○ € 2,57 *u op 9*
   - ○ € 2,85 *v op 8*

7. Het vierde deel van 100 meter is ..... meter meer dan 20 meter.
   - ○ 5 *o op 3*
   - ○ 25 *w op 1*
   - ○ 45 *g op 8*

8. Een derde deel van 60 is ..... meer dan een zesde deel van 60.
   - ○ 20 *k op 5*
   - ○ 30 *l op 2*
   - ○ 10 *m op 4*

9. Ik moet € 1,95 cent betalen.
   Ik geef een euro, een munt van 20 eurocent en nog ..... eurocent.
   - ○ 85 *o op 7*
   - ○ 120 *a op 6*
   - ○ 75 *i op 10*

10. Een blik stroop weegt 600 gram.
    De stroop weegt een halve kg.
    Het blik weegt ..... gram.
    - ○ 500 *u op 6*
    - ○ 100 *m op 5*
    - ○ 600 *d op 12*

11. Een wit brood weegt 800 gram.
    Een bruin brood weegt een kilogram.
    Het bruine brood is ..... gram zwaarder.
    - ○ 200 *t op 1*
    - ○ 300 *s op 4*
    - ○ 1000 *h op 9*

12. Ik heb 60 munten. Ik maak rijen van 12 munten.
    Ik maak dus ..... rijen .
    - ○ 48 *v op 8*
    - ○ 36 *g op 1*
    - ○ 5 *e op 6*

1	2	3	4	5	6	7	8	9	10	11	12	vraag
○	○	○	○	○	○	○	○	○	○	○	○	antwoord

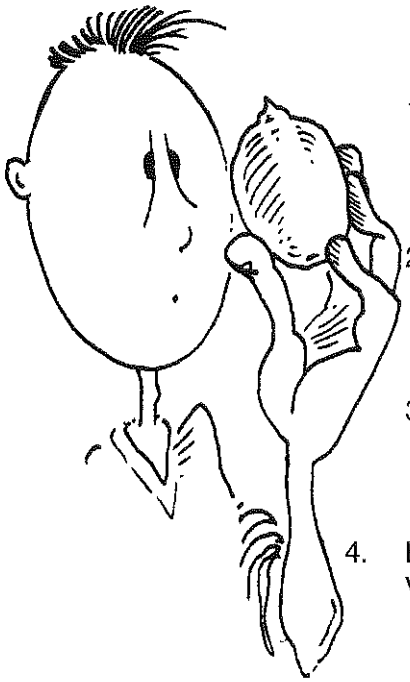

1. Ik heb een touw van twee meter dertig.
Het touw moet zijn 170 cm.
Het touw is ..... cm te lang.

○ 60 *t op 2*
○ 140 *v op 10*
○ 30 *ij op 5*

2. Sien moet betalen € 1,35.
Ze geeft € 1,25 en nog ..... munten van 5 eurocent.

○ 7 *b op 1*
○ 2 *s op 6*
○ 3 *h op 7*

3. Ik moet € 13,00 betalen.
Van drie munten van 5 euro krijg ik ..... euro terug.

○ 1 *k op 4*
○ 2 *g op 9*
○ 3 *c op 8*

4. Een citroen kost 75 eurocent.
Voor drie euro kan ik ..... citroenen kopen.

○ 3 *m op 4*
○ 5 *a op 2*
○ 4 *v op 7*



5. Ewout koopt 4 tubes verf. Een tube kost 240 eurocent.
Hij geeft een briefje van 10 euro en krijgt € ..... terug.

○ € 1,40 *l op 8*
○ € 0,60 *t op 11*
○ € 0,40 *e op 10*

6. De helft van 866 is ..... .

○ 433 *s op 1*
○ 466 *e op 9*
○ 833 *a op 6*

7. Een touw is 369 cm lang. Ik snijd het touw in drie gelijke stukken.
Elk stuk is dan ..... cm lang.

○ 123 *i op 5*
○ 129 *j op 6*
○ 132 *ij op 2*

8. Van 186 schriften maak ik drie gelijke stapeltjes.
Elk stapeltje telt dan ..... schriften.

○ 92 *u op 10*
○ 62 *o op 8*
○ 83 *i op 12*

9. Dit boek kost € 7,60.
Dat boek is € 1,20 duurder en kost dus € ..... .

○ € 8,80 *l op 11*
○ € 6,40 *s op 3*
○ € 8,40 *w op 9*

10. Op de klok is het vijf voor half drie. De klok loopt een half uur vóór.
Hoe laat is het dus?

○ 5 voor 3 *k op 1*
○ 5 voor 2 *s op 12*
○ 5 over half 3 *d op 6*

11. Ans wordt vandaag 10 jaar. Koos is precies 1 jaar en 6 weken ouder.
Koos is nu ..... jaar oud.

○ 10 *k op 11*
○ 11 *r op 3*
○ 12 *a op 7*

12. Bij Gerrit thuis hebben ze vier kippen.
Per dag eten deze kippen samen 200 gram kippenvoer.
Elke kip eet per dag ..... gram op.

○ 160 *n op 12*
○ 800 *v op 3*
○ 50 *u op 4*

vraag	1	2	3	4	5	6	7	8	9	10	11	12
antwoord												

Redactiesommen A - blad 22

1. Johan en Evert gaan voor hun moeder sinaasappels kopen.
Johan koopt er 23 en Evert 12. Ze leggen de sinaasappels
in één mand. Er zitten ..... sinaasappels in de mand.

○ 35 *v op 6*
○ 25 *a op 2*
○ 11 *g op 3*

2. Paul krijgt op zijn verjaardag een zak met 78 knikkers.
De eerste dag verliest hij er al 6.
Nu heeft hij nog ..... knikkers.

○ 84 *p op 11*
○ 72 *l op 7*
○ 74 *d op 10*

3. In een doosje liggen 28 potloden. In een ander doosje liggen er 27.
Als ik de potloden bij elkaar doe, heb ik er ..... .

○ 45 *c op 10*
○ 55 *t op 2*
○ 65 *b op 12*

4. Langs een straat staan 31 bomen.
Er worden 17 bomen omgekapt.
Nu staan er nog maar ..... .

○ 24 *w op 9*
○ 14 *s op 1*
○ 48 *o op 6*

5. Henk heeft 37 knikkers. Hij wint er 18.
Nu heeft hij ..... knikkers.

○ 19 *u op 12*
○ 55 *i op 8*
○ 21 *a op 5*

6. Voor het bouwen van een muurtje heeft men twee stapels stenen gebracht.
Op de ene stapel liggen 300 stenen, op de andere 500.
Hoeveel stenen zijn er?

○ 200 *i op 1*
○ 530 *v op 11*
○ 800 *r op 12*

7. Een tegelzetter heeft 1500 tegels. Hij gebruikt er 800.
Er zijn er nog ..... over

○ 800 *w op 2*
○ 2300 *f op 4*
○ 700 *e op 9*

8. Twee bakkers maken krentenbolletjes.
De één maakt er 180, de andere 70.
Hoeveel krentenbolletjes hebben ze gemaakt?

○ 250 *u op 3*
○ 110 *j op 9*
○ 210 *g op 6*

9. In een schoenenfabriek maakt men op één dag 480 paar bruine schoenen
en 300 paar zwarte. Op die dag maakte men ..... schoenen.

○ 1560 *e op 11*
○ 780 *m op 8*
○ 180 *s op 7*

10. Van de 300 paar zwarte schoenen worden er 9 paar afgekeurd.
Er blijven ..... zwarte schoenen over.

○ 582 *g op 10*
○ 291 *n op 1*
○ 309 *l op 5*

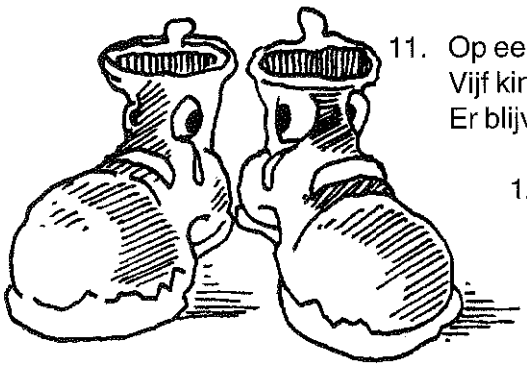

11. Op een school zitten 270 kinderen.
Vijf kinderen verhuizen en gaan naar een andere school.
Er blijven ..... kinderen op deze school.

○ 275 *u op 4*
○ 270 *s op 3*
○ 265 *t op 5*

12. Ellie krijgt van ieder van haar zes tantes
drie euro voor haar mooie rapport.
Ze heeft ..... euro gekregen.

○ 21 *p op 8*
○ 15 *u op 1*
○ 18 *n op 4*

1	2	3	4	5	6	7	8	9	10	11	12	vraag
○	○	○	○	○	○	○	○	○	○	○	○	antwoord

1. Ik koop een puzzelboek voor € 4,20.
   Van € 10,00 krijg ik € ..... terug.

   ○ € 5,80 *a op 2*
   ○ € 6,80 *d op 12*
   ○ € 6,20 *e op 3*

2. Een winkelier heeft 400 potjes jam gekocht.
   Hij verkoopt er 67 van.
   Hij houdt ..... potjes jam over.

   ○ 33 *k op 6*
   ○ 333 *l op 1*
   ○ 467 *v op 2*

3. In mijn spaarpot heb ik 390 eurocent. Ik krijg er 280 eurocent bij.
   Nu heb ik ..... eurocent.

   ○ 570 *p op 12*
   ○ 670 *a op 9*
   ○ 590 *h op 11*

4. Ik koop een boek voor € 6,90. In mijn portemonnee zit € 7,40.
   Ik betaal het boek en houd ..... eurocent over.

   ○ 50 *n op 3*
   ○ 150 *d op 2*
   ○ 130 *v op 4*

5. Vijf jongens hebben ieder 19 knikkers.
   Samen hebben ze er ..... .

   ○ 105 *e op 3*
   ○ 95 *g op 4*
   ○ 85 *n op 11*



6. In de kast liggen 105 schriften. Juf deelt er 7 uit.
   In de kast liggen dan nog ..... schriften.

   ○ 98 *d op 11*
   ○ 112 *m op 10*
   ○ 102 *u op 1*

7. Ik heb 97 knikkers. Ik win er 8.
   Nu heb ik ..... knikkers.

   ○ 115 *u op 6*
   ○ 89 *i op 5*
   ○ 105 *a op 8*

8. Op een vrachtauto liggen 490 stenen. Op een andere vrachtauto
   liggen er 230. Op de twee auto's liggen samen ..... stenen.

   ○ 260 *m op 7*
   ○ 240 *d op 4*
   ○ 720 *e op 5*

9 Van de 830 sinaasappels worden er 460 verkocht.
   Nu zijn er nog ..... .

   ○ 430 *z op 1*
   ○ 370 *e op 12*
   ○ 380 *p op 8*

10 Meneer heeft 300 blaadjes in de kast. Hij deelt er 39 van uit.
   Hij houdt ..... blaadjes over.

   ○ 261 *l op 7*
   ○ 271 *t op 9*
   ○ 361 *s op 10*

11. Vier jongens verdienen ieder per dag 23 euro.
    Samen verdienen ze ..... euro per dag.

    ○ 92 *g op 10*
    ○ 98 *t op 7*
    ○ 112 *d op 5*

12. Een rol touw weegt 450 gram.
    vierr van die rollen touw wegen samen ..... gram.

    ○ 1450 *o op 9*
    ○ 1600 *p op 8*
    ○ 1800 *a op 1*

vraag	1	2	3	4	5	6	7	8	9	10	11	12
antwoord												

Redactiesommen A - blad 24



1. Een kabel is 4700 meter lang.
Hij moet verlengd worden met 2000 meter.
De kabel is dan ..... meter lang.

○ 6700 *a op 2*
○ 2700 *c op 7*
○ 2300 *e op 6*

2. Een glas kost € 1,40.
Ik koop er 20. Ik moet ..... betalen.

○ € 14,00 *d op 9*
○ € 28,00 *o op 7*
○ € 24,80 *m op 8*

3. Negen jongens hebben ieder 700 suikerzakjes.
Samen hebben ze er ..... .

○ 6300 *i op 9*
○ 630 *n op 8*
○ 5600 *s op 5*

4. Juf koopt 13 doosjes krijtjes. In elk doosje zitten 60 krijtjes. Ze heeft dan ..... krijtjes.

○ 540 *w op 4*
○ 780 *l op 1*
○ 618 *k op 10*

5. In een collectebus zat 1800 geldstukken.
In een andere bus 1500. In de twee collectebussen zaten ..... geldstukken.

○ 2300 *c op 11*
○ 3300 *e op 8*
○ 3030 *k op 12*

6. Een weg is 3500 meter lang. 2400 meter moet worden opgebroken.
Er blijft ..... meter weg over.

○ 1100 *r op 11*
○ 1900 *h op 3*
○ 2900 *f op 1*

7. Vader koopt voor de keuken 203 tegels. Er blijken er 9 kapot te zijn.
Er zijn ..... goede tegels.

○ 212 *g op 2*
○ 194 *a op 3*
○ 192 *u op 7*

8. Annemarie koopt 6 tennisballen.
Eén bal kost € 2,50.
Ze moet € ..... betalen.

○ € 10,- *s op 9*
○ € 12,50 *u op 3*
○ € 15,- *l op 6*

9. Vader verstuurt 3 pakjes. Op elk pak moet voor € 4,50 aan postzegels. Dat kost vader € ..... .

○ € 12,50 *m op 4*
○ € 13,50 *e op 10*
○ € 15,- *t op 12*

10. In groep 4 zitten 29 kinderen. Na de vakantie komen er 6 nieuwe bij.
In de groep zitten nu ..... kinderen.

○ 27 *n op 5*
○ 23 *i op 2*
○ 35 *s op 12*

11. Op een school zitten 232 leerlingen. Er gaan 9 leerlingen van school af.
Er zitten dan nog ..... leerlingen op school.

○ 239 *d op 1*
○ 241 *c op 11*
○ 223 *t op 4*

12. Een auto rijdt in 1 uur 70 kilometer. In 4 uur legt de auto ..... km af.

○ 280 *b op 5*
○ 320 *e op 6*
○ 270 *p op 10*

1	2	3	4	5	6	7	8	9	10	11	12	vraag
○	○	○	○	○	○	○	○	○	○	○	○	antwoord

Ben je klaar?
Vraag dan toets 4 van deel A

Kent u de andere Kinheim blokboeken?

Aardrijkskunde

90-6052-174-9	Atlas van Nederland
90-6052-176-5	Atlas van Europa
90-6052-180-3	Atlas van de Wereld
90-6052-177-3	Blokboek Nederland
90-6052-178-1	Blokboek Europa
90-6052-165-x	Blokboek Wereld

Taal

90-6052-002-5	Blokboek Taal 3
90-6052-132-3	Blokboek Taal 4
90-6052-148-x	Blokboek Taal 5
90-6052-144-7	Blokboek Taal 6
90-6052-162-5	Blokboek Taal 7
90-6052-158-7	Blokboek Taal 8
90-6052-018-1	Blokboek Taal 7 extra
90-6052-019-x	Blokboek Taal 8 extra
90-6052-017-3	Cryptologisch

Werkboek afscheid basisschool

90-6052-016-5	Bekijk 't maar, groep 8

Geschiedenis

90-6052-003-3	Blokboek geschiedenis 6
90-6052-004-1	Blokboek geschiedenis 7
90-6052-005-x	Blokboek geschiedenis 8

Natuur

90-6052-027-0	Blokboek Natuur 4
90-6052-028-9	Blokboek Natuur 5
90-6052-024-6	Blokboek Natuur 6
90-6052-025-4	Blokboek Natuur 7
90-6052-026-2	Blokboek Natuur 8

Staatsinrichting

90-6052-167-6	Blokboek Staatsinrichting

Verkeer

90-6052-146-3	Blokboek Verkeer 3
90-6052-147-1	Blokboek Verkeer 4
90-6052-131-5	Blokboek Verkeer 5
90-6052-153-6	Blokboek Verkeer 6
90-6052-154-4	Blokboek Verkeer 7/8
Handleiding	Vijf deeltjes

Rekenen

90-6052-006-8	Blokboek redactiesommen A
90-6052-007-6	Blokboek redactiesommen B
90-6052-008-4	Blokboek redactiesommen C
90-6052-009-2	Blokboek redactiesommen D
Handleiding	Eén boek voor vier delen

Tekenen

90-6052-029-7	Blokboek tekenen 4
90-6052-030-0	Blokboek tekenen 5
90-6052-031-9	Blokboek tekenen 6
90-6052-127-7	Blokboek tekenen 7
90-6052-128-5	Blokboek tekenen 8

Bij alle blokboeken zijn antwoordenboeken te krijgen

W. de Vlugt *Blokboek redactiesommen A*

1999 2e druk
Vormgeving: Freek Heidinga
Illustraties: Noga Zohar
ISBN: 90 6052 006 8

© 1999

Kinheim Marketing BV
't Zand 10
4254 XP Sleeuwijk
tel 0183 - 302537
fax 0183 - 304996

Het is niet toegestaan pagina's uit dit boek te kopiëren.