blokboek

redactiesommen B

Wouter de Vlugt

Kinheim

1. Precies tussen 1000 en 2000 ligt het getal ..... .





○ 1050 *a op 12*
○ 1500 *e op 3*
○ 1550 *o op 2*

2. Van de 736 eieren zijn er 264 bedorven.
Er zijn er nog ..... goed.

○ 532 *w op 11*
○ 472 *v op 7*
○ 528 *m op 9*

3. Van een lat van 430 cm zaag ik een stuk van 350 cm.
Nu is de lat ..... cm.

○ 220 *g op 1*
○ 120 *a op 9*
○ 80 *k op 10*

4. Van de 934 bomen worden er 329 gekapt.
Nu staan er nog ..... bomen.

○ 505 *l op 10*
○ 605 *n op 12*
○ 615 *d op 3*

5. De getallen van 85 tot en met 90 zijn samen ..... .

○ 175 *b op 8*
○ 435 *c op 4*
○ 525 *s op 1*

6. Een bakker verkoopt op maandag t/m vrijdag 200 broden per dag.
Op zaterdag verkoopt hij er 500. Zondags is de winkel gesloten.
Hij verkoopt ..... broden per week.

○ 1600 *t op 6*
○ 1700 *u op 10*
○ 1500 *e op 11*

7. Welk getal is 50 minder dan de helft van 1000?

○ 950 *m op 7*
○ 550 *o op 5*
○ 450 *l op 6*

8. Joop heeft € 15,- gespaard. Van zijn vader krijgt hij nog 3 euro en
van zijn moeder een € 2,50. Hij koopt een bal van € 16,50.
Hoeveel heeft hij over?

○ € 3,50 *k op 11*
○ € 4,- *k op 4*
○ € 6,50 *g op 5*

9. In een trein zitten 248 reizigers. Bij een station stappen er 57 uit,
maar er stappen 89 reizigers in. Nu zitten er ..... reizigers in de trein.

○ 280 *e op 5*
○ 216 *z op 8*
○ 191 *h op 4*



10. Welk getal is 25 meer dan de helft van 150?

○ 125 *g op 2*
○ 75 *p op 6*
○ 100 *r op 9*

11. Jaap heeft € 2,80. Wim heeft € 3,20. Samen € ..... .

○ € 6,00 *a op 8*
○ € 5,80 *d op 12*
○ € 1,60 *b op 1*

12. In een dag spaar ik € 1,60. In een week € ..... .

○ € 9,60 *r op 3*
○ € 11,20 *t op 2*
○ € 11,42 *p op 7*

vraag	1	2	3	4	5	6	7	8	9	10	11	12
antwoord												

Redactiesommen B - blad 2

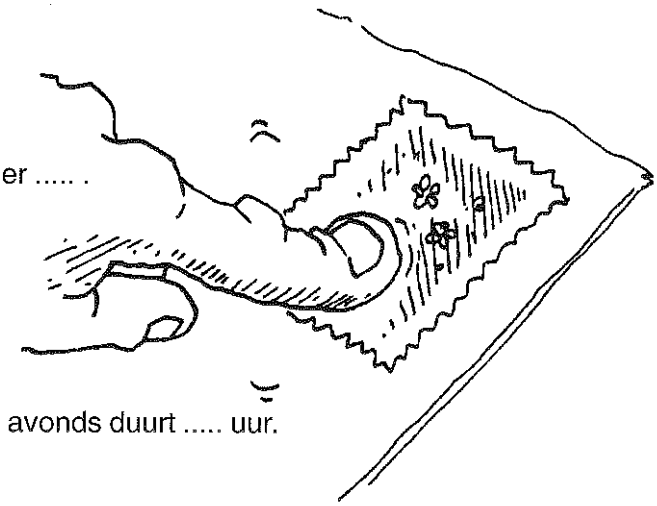

1. Karel heeft 500 postzegels.
   Jan heeft er 9 minder. Jan heeft er ..... .
   - ○ 491 *i op 1*
   - ○ 509 *a op 3*
   - ○ 909 *d op 2*

2. Vader is 46 jaar.
   Moeder is 3 jaar jonger.
   Samen zijn ze ..... jaar.
   - ○ 43 *a op 1*
   - ○ 91 *g op 12*
   - ○ 89 *m op 7*

3. Van 8 uur 's morgens tot 9 uur 's avonds duurt ..... uur.
   - ○ 11 *h op 3*
   - ○ 13 *n op 9*
   - ○ 12 *c op 8*

4. Van 1200 stenen worden er 500 gebruikt. Er blijven ..... stenen over.
   - ○ 1700 *s op 9*
   - ○ 700 *e op 11*
   - ○ 800 *k op 2*

5. Welk getal is 1 minder dan de helft van 1000?
   - ○ 999 *z op 10*
   - ○ 501 *c op 9*
   - ○ 499 *t op 4*

6. Wim heeft € 3,70. Piet heeft € 1,20 minder. Samen hebben ze € ..... .
   - ○ € 4,90 *l op 8*
   - ○ € 6,20 *n op 12*
   - ○ € 2,50 *i op 10*

7. Vader is 7 keer zo oud als Henk. Vader is 42 jaar. Henk is ..... jaar.
   - ○ 5 *a op 7*
   - ○ 6 *t op 10*
   - ○ 8 *m op 1*

8. De helft van 12 kwartjes is ..... dubbeltjes.
   - ○ 60 *d op 6*
   - ○ 15 *e op 8*
   - ○ 120 *b op 7*

9. Ons huis is 8 meter hoog. De boom voor ons huis is 9 meter en 35 cm.
   De boom is ..... hoger dan ons huis.
   - ○ 1 m + 65 cm *l op 5*
   - ○ 1 m + 35 cm *n op 2*
   - ○ 2 m + 35 cm *c op 9*

10. Een kleine bal kost € 5,65
    en een grote bal kost € 12,85.
    Ik koop 1 kleine en 2 grote ballen.
    Ik moet € ..... betalen.
    - ○ € 31,35 *s op 3*
    - ○ € 30,45 *u op 11*
    - ○ € 29,85 *h op 4*

11. Bij het stadion stonden 1276 auto's.
    In de pauze vertrokken er 224.
    Na de pauze waren er nog ..... auto's
    - ○ 1052 *u op 6*
    - ○ 1152 *l op 5*
    - ○ 1460 *b op11*

12. Van half 10 's morgens tot
    half 12 's morgens is ..... uur.
    - ○ 14 *g op 12*
    - ○ 3 *i op 6*
    - ○ 2 *r op 5*

	1	2	3	4	5	6	7	8	9	10	11	12
vraag												
antwoord	○	○	○	○	○	○	○	○	○	○	○	○

1. De eerste week van de maand waren er 120 mensen op de fabriek ziek, de 2e week 10 meer, de 3e week 40 meer en de 4e week 50 meer dan de eerste week. Er waren in die maand ..... mensen op de fabriek ziek.
   - ○ 580 *l op 5*
   - ○ 475 *u op 12*
   - ○ 470 *i op 1*

2. In een boekje staan 165 plaatjes. Er zijn 80 gekleurde plaatjes bij. Er zijn dus ..... plaatjes niet gekleurd.
   - ○ 45 *d op 2*
   - ○ 125 *b op 3*
   - ○ 85 *s op 1*

3. Een bakker verkoopt iedere werkdag 210 broden. Zaterdags verkoopt hij het dubbele. Hij verkoopt ..... broden per week.
   - ○ 1260 *t op 2*
   - ○ 1470 *n op 12*
   - ○ 1050 *a op 11*

4. Bij een voetbalwedstrijd zijn 6000 toeschouwers. Bij een regenbui gaan er eerst 500 mensen weg en later nog 200. Er blijven nog ..... mensen over.
   - ○ 5700 *s op 5*
   - ○ 5500 *w op 2*
   - ○ 5300 *e op 11*

5. Ik zaag een plank van 360 cm in 4 stukken. Elk stuk is ..... cm lang.
   - ○ 90 *p op 7*
   - ○ 120 *v op 1*
   - ○ 240 *h op 4*



6. Piet haalt 5 pakjes stickers van € 1,50 per pakje en 2 kaarten van € 1,75 per stuk. Samen voor € ..... .
   - ○ € 9,75 *k op 7*
   - ○ € 10,- *o op 4*
   - ○ € 11,- *d op 6*

7. Ik wandel van Groningen naar Assen, dat is 25 km, en ik loop in 1 uur 5 km. Ik vertrek om 10 uur. Ik ben in Assen om ..... uur.
   - ○ 3 *a op 8*
   - ○ 4 *i op 10*
   - ○ 5 *e op 6*

8. Truus heeft 60 knikkers. Ze geeft de helft aan Jan, en daarna nog 10 aan Piet. Truus houdt er nog ..... over.
   - ○ 20 *d op 10*
   - ○ 30 *w op 7*
   - ○ 40 *v op 8*

9. Een kaartje voor de voorstelling kost € 12,50. Vader neemt vier vrienden mee en betaalt ook voor hen. Te betalen: € ..... .
   - ○ € 62,50 *c op 2*
   - ○ € 63,- *p op 6*
   - ○ € 50,- *f op 12*

10. Voor € 75,- kan ik ..... voetballen van € 15,- per stuk kopen.
    - ○ 5 *d op 9*
    - ○ 12 *k op 8*
    - ○ 15 *u op 11*

11. Een auto rijdt 80 km per uur. Die auto rijdt over 240 km ..... uur.
    - ○ 6 *r op 10*
    - ○ 4 *s op 9*
    - ○ 3 *i op 4*

12. In een stad A wonen 45.000 mensen, in stad B 35.000 en in stad C 20.000. Samen wonen in die drie steden ..... mensen.
    - ○ 100000 *h op 3*
    - ○ 90.000 *s op 5*
    - ○ 95.000 *n op 9*

vraag	1	2	3	4	5	6	7	8	9	10	11	12
antwoord												

Redactiesommen B - blad 4



1. Van half 4 tot 4 uur duurt ..... minuten.
   - ○ 45 — *b op 1*
   - ○ 30 — *v op 3*
   - ○ 60 — *a op 4*

2. Thijs heeft 140 knikkers.
   Hij verliest er 65 aan Piet.
   Nu heeft Thijs ..... knikkers.
   - ○ 95 — *u op 2*
   - ○ 75 — *e op 9*
   - ○ 85 — *o op 12*

3. Als een plakplaatje 45 eurocent kost,
   hoeveel kun je dan kopen voor € 3,60?
   - ○ 6 — *b op 4*
   - ○ 7 — *t op 3*
   - ○ 8 — *r op 6*

4. Moeder is 34 jaar. Vader is 3 jaar ouder.
   Vader is ..... jaar oud.
   - ○ 31 — *w op 6*
   - ○ 37 — *e op 10*
   - ○ 41 — *g op 5*

5. Wim loopt 350 meter. Herman loopt 734 meter en later nog 35 meter.
   Herman loopt ..... meter meer.
   - ○ 416 — *l op 7*
   - ○ 419 — *r op 8*
   - ○ 348 — *z op 9*

6. Van een touw van 78 meter knip ik eerst 17 meter en later nog 35 meter.
   Nu is het touw ..... meter.
   - ○ 18 — *u op 8*
   - ○ 52 — *k op 10*
   - ○ 26 — *i op 4*

7. Vader werkt van 8 tot 12 uur en van 2 tot 6 uur. Dat is ..... uur per dag.
   - ○ 8 — *t op 12*
   - ○ 7 — *f op 1*
   - ○ 6 — *u op 3*

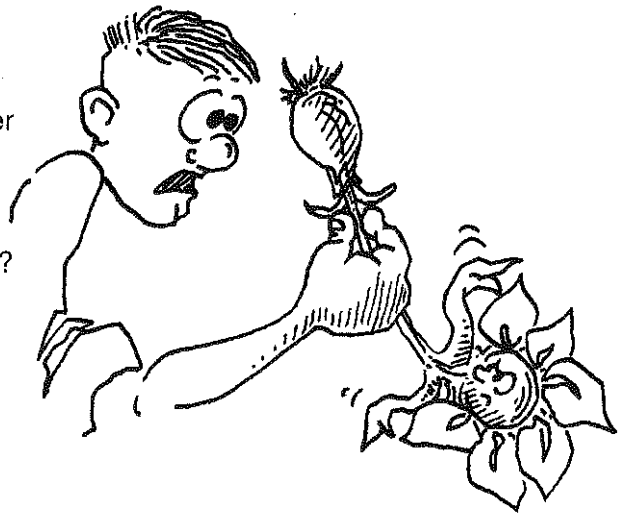

8. Hoeveel is de helft van 2000 meter
   meer dan de helft van 1800?
   - ○ 200 — *v op 5*
   - ○ 100 — *f op 11*
   - ○ 50 — *a op 2*

9. Hoeveel is 5 x 60 meer dan 3 x 60?
   - ○ 60 — *t op 12*
   - ○ 120 — *k op 7*
   - ○ 180 — *h op 11*

10. Zes bloembollen kosten €1,20.
    Vijf bloembollen kosten € ..... .
    - ○ € 1,00 — *e op 5*
    - ○ € 0,90 — *b op 6*
    - ○ € 1,11 — *d op 9*

11. Een kwartier na 5 minuten voor 10 is het ..... .
    - ○ 20 voor 10 — *o op 10*
    - ○ 20 over 10 — *s op 7*
    - ○ 10 over 10 — *r op 1*

12. Jan gooit op de sjoelbak 220. Kees 230 en Gé 150.
    Samen gooien ze ..... minder dan 1000.
    - ○ 450 — *d op 11*
    - ○ 410 — *a op 8*
    - ○ 400 — *i op 2*

1	2	3	4	5	6	7	8	9	10	11	12	vraag
○	○	○	○	○	○	○	○	○	○	○	○	antwoord

1. In een gebouw zitten 36 ruitjes.
Een kwart daarvan heeft gekleurd glas.
Dat zijn ..... gekleurde ruitjes.

○ 9 *h op 1*
○ 18 *a op 5*
○ 6 *n op 2*

2. Een autohandelaar heeft 212 auto's.
Hij verkoopt er 35.
Hij houdt ..... auto's over.

○ 187 *d op 4*
○ 177 *o op 5*
○ 223 *g op 3*

3. € 4,- is evenveel als ..... munten van 50 eurocent.

○ 25 *b op 7*
○ 10 *u op 11*
○ 8 *g op 10*

4. € 2,50 is evenveel waard
als ..... munten van 10 eurocent.

○ 125 *i op 6*
○ 50 *a op 12*
○ 25 *e op 11*

5. Een euro kan ik ruilen voor ..... munten van 5 eurocent.

○ 20 *m op 4*
○ 25 *w op 3*
○ 50 *t op 5*



6. Een biljet van 5 euro en een biljet van 10
euro zijn samen evenveel waard
als ..... munten van 50 eurocent.

○ 7½ *s op 1*
○ 15 *t op 2*
○ 30 *r op 9*

7. Als ik 48 knikkers onder 3
jongens verdeel, krijgt ieder er ..... .

○ 24 *d op 4*
○ 16 *n op 6*
○ 12 *v op 1*

8. Mijn broer heeft 76 knikkers.
Hij wint er 29 bij.
Mijn broer heeft nu ..... knikkers.

○ 115 *ij op 9*
○ 105 *o op 8*
○ 95 *w op 10*

9. Een autohandelaar verkoopt twee auto's, één voor € 28.000,- en één voor
€ 17.000,-. Dat is samen voor ..... duizend euro.

○ 11 *u op 11*
○ 4½ *t op 9*
○ 45 *m op 3*

10. Vader koopt 75 kuikens. Er gaan er 16 dood.
Er blijven er ..... in leven.

○ 59 *l op 12*
○ 91 *s op 6*
○ 81 *t op 8*



11. Van een weiland dat 41.000 m² groot is,
wordt 18.000 m² omgeploegd.
Er blijft .....m² weiland over.

○ 2.300 m² *r op 10*
○ 23.000 m² *d op 7*
○ 5.700 m² *s op 8*

12. Maandag at Alex negen boterhammen,
dinsdag acht en woensdag dertien.
In drie dagen at hij ..... boterhammen.

○ 25 *n op 12*
○ 27 *r op 7*
○ 30 *a op 2*

vraag	1	2	3	4	5	6	7	8	9	10	11	12
antwoord												

Redactiesommen B - blad 6



1. Johan krijgt van z'n moeder € 12,50.
   Hij koopt een map van € 6,80 en daarna nog
   een stel stiften voor € 4,60. Hij houdt € ..... over.

   ○ € 2,10 *z op 5*
   ○ € 1,10 *c op 2*
   ○ € 0,90 *v op 3*

2. Vader verstuurt vijf pakjes.
   Op elk pakje moet voor € 4,50 aan postzegels.
   Dat kost € ..... .

   ○ € 27,50 *ij op 4*
   ○ € 20,50 *c op 6*
   ○ € 22,50 *r op 5*

3. In vijf dagen maak ik 45 sommen.
   Dat is gemiddeld ..... per dag.

   ○ 9 *e op 7*
   ○ 8 *l op 3*
   ○ 11 *n op 9*

4. In een straat staan 47 huizen.
   Er worden 55 huizen bijgebouwd.
   Dan staan er ..... huizen in die staat.

   ○ 102 *i op 10*
   ○ 92 *m op 7*
   ○ 82 *n op 4*

5. Maandag maakt Hilda 5 fouten in haar sommen, dinsdag 4, woensdag 7, donderdag 6 en vrijdag 9. In die week maakt zij ..... fouten.

   ○ 27 *d op 2*
   ○ 28 *n op 12*
   ○ 31 *a op 1*

6. Van een stapel van 28 schriften kijkt meneer er 2 keer een zevende deel na. Hij heeft nu ..... schriften nagekeken.

   ○ 4 *m op 5*
   ○ 8 *o op 4*
   ○ 16 *b op 6*

7. Vader en moeder gaan een tentoonstelling bezoeken. Moeder loopt voorop. Moeder is de 11599ste bezoeker. En vader?

   ○ 12000 *d op 9*
   ○ 11500 *b op 11*
   ○ 11600 *o op 8*

8. Ik geef € 50,- voor een shirt van € 24,75 en krijg daarom € ..... terug.

   ○ € 26,25 *t op 10*
   ○ € 25,25 *c op 3*
   ○ € 26,35 *s op 12*



9. Een fietser vertrekt uit Beetsterzwaag om 6.43 uur.
   Zij komt in Leeuwarden aan om 12.59 uur.
   Zij heeft de afstand afgelegd in ..... uur en ..... min.

   ○ 6 u. + 16 min. *t op 12*
   ○ 6 u. + 6 min. *i op 2*
   ○ 7 u. + 6 min. *s op 8*

10. In een spaarpot zitten 17 munten van 2 euro en 17 munten van 50 eurocent. Dat is € ..... .

    ○ € 37,50 *ij op 8*
    ○ € 42,50 *n op 9*
    ○ € 54,25 *s op 1*

11. Een wandelaar legt de afstand tussen A en B af. Hij vertrekt uit A om 9.31 uur en komt in B aan om 19.15 uur. De wandelaar heeft ..... uur en ..... minuten over de afstand gedaan.

    ○ 10 u. + 34 min. *l op 11*
    ○ 10 u. + 16 min. *m op 9*
    ○ 9 u. + 44 min. *s op 11*

12. Eric legt elke dag op weg naar school en terug 34 km op de bromfiets af. In vijf dagen legt hij ..... km af.

    ○ 85 *v op 1*
    ○ 340 *w op 8*
    ○ 170 *d op 6*

1	2	3	4	5	6	7	8	9	10	11	12	vraag
○	○	○	○	○	○	○	○	○	○	○	○	antwoord

Ben je klaar?
Vraag dan toets 1 van deel B

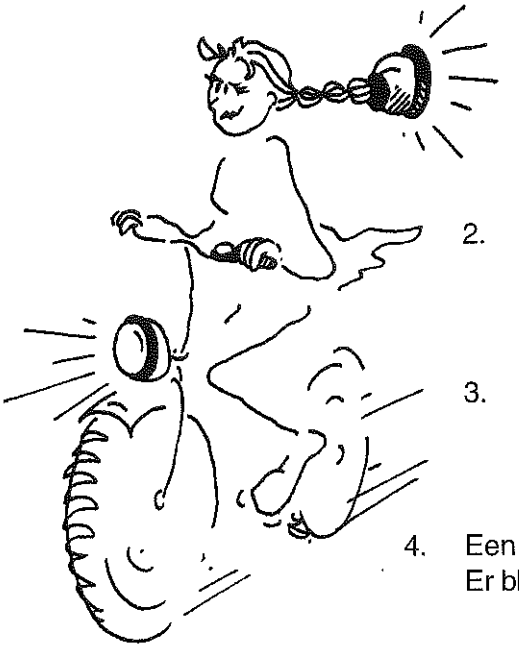

1. Paul legt in 5 dagen 135 km af.
Hij 'bromt' in 1 dag gemiddeld ..... km.

○ 27 *o op 2*
○ 35 *m op 11*
○ 37 *b op 3*

2. Vader koopt vier pakjes enveloppen.
Eén pakje kost € 2,40.
Vader moet betalen € ..... .

○ € 10,60 *t op 2*
○ € 9,60 *l op 9*
○ € 6,80 *s op 10*

3. Moeder koopt negen blikken doperwten
en betaalt € 11,70. Eén blik kost € ..... .

○ € 1,70 *u op 12*
○ € 1,30 *t op 3*
○ € 1,45 *r op 1*

4. Een dag heeft 24 uur. Gerard slaapt 9½ uur per dag.
Er blijft dan per dag nog ..... uur over.

○ 14½ *l op 10*
○ 15½ *s op 9*
○ 11½ *b op 4*

5. Karel heeft 20 knikkers. Eerst wint hij 17 knikkers, daarna nog eens 19.
Hij heeft ..... knikkers gewonnen.

○ 56 *p op 6*
○ 52 *u op 5*
○ 36 *m op 1*

6. De kippen van Boer Berends hebben 's morgens 149 eieren gelegd,
en 's avonds nog eens 38. Die dag hebben ze ..... eieren gelegd.

○ 178 *i op 9*
○ 187 *a op 8*
○ 197 *l op 7*

7. Op een schip bevinden zich 243 passagiers. In een haven gaan er
59 aan land. Er blijven nog ..... passagiers op het schip.

○ 196 *h op 10*
○ 194 *k op 5*
○ 184 *n op 6*

8. Moeder gaat boodschappen doen. Ze heeft € 136,- meegenomen.
Ze geeft € 104,80 uit. Ze houdt over € ..... .

○ € 32,20 *c op 11*
○ € 31,20 *b op 7*
○ € 32,80 *ij op 6*

9. Ik koop een bel voor mijn fiets voor € 9,30 en een
achterlichtje voor € 9,80. Ik moet betalen € ..... .

○ € 18,50 *d op 12*
○ € 18,10 *f op 8*
○ € 19,10 *e op 11*

10. Dirk koopt vijf schriften. Een schrift kost 48 eurocent.
Hij betaalt ..... eurocent.

○ 240 *e op 5*
○ 140 *j op 4*
○ 228 *ij op 9*

11. Een marktkoopman heeft 125 pakjes scheermesjes. Na zijn eerste
verkoop-praatje verkoopt hij 18 pakjes. Na zijn volgende 'redevoeringen'
verkoopt hij er 34,12 en 26. Nu heeft hij nog ..... pakjes.

○ 85 *p op 3*
○ 35 *n op 12*
○ 90 *j op 8*

12. Een buitenband voor een mountain-bike kost bij een rijwielhersteller € 26,25.
Ik koop er tien. Ik moet € ..... betalen.

○ € 260,25 *d op 1*
○ € 260,50 *n op 2*
○ € 262,50 *t op 4*

vraag	1	2	3	4	5	6	7	8	9	10	11	12
antwoord												

Redactiesommen B - blad 8

1. Fred spaart voor een game-boy: elke week 75 eurocent in de spaarpot.
Hoeveel heeft hij dan in een half jaar bij elkaar gespaard?

○ € 19,50 *z op 1*
○ € 39,- *w op 4*
○ € 45,- *v op 3*

2. Op woensdag vervoerde een bus 450 reizigers. Op donderdag 32 minder en op vrijdag 62 meer dan 's woensdags.
Op deze drie dagen werden ..... reizigers vervoerd.

○ 994 *a op 7*
○ 1256 *o op 3*
○ 1380 *v op 6*

3. Ik koop vier taartjes bij de bakker. Eén taartje kost € 3,45.
Ik geef € 25,- en krijg € ..... terug.



○ € 13,10 *g op 5*
○ € 10,80 *p op 2*
○ € 11,20 *l op 7*

4. Jan woont 1 km van school. Piet 6 km.
Hoeveel woont Piet verder van school?

○ 7 km *s op 2*
○ 6 km *b op 12*
○ 5 km *e op 8*

5. Een wandelaar loopt 5 km per uur. Een fietser gaat 3 x zo snel.
Hoe lang doet de fietser over een weg van 60 km?

○ 20 *m op 6*
○ 14 *o op 1*
○ 4 *n op 12*

6. Op de brievenbus staat: 'Lichting om 8 uur'.
Als ik een brief om half 5 op de bus doe, hoe laat gaat de brief dan weg?

○ 3 uur *v op 1*
○ 3½ uur *u op 5*
○ 8 uur *o op 2*

7. Van mijn huis naar de bushalte is een half uur lopen.
De bus gaat om 10.15 uur. Ik moet om ..... van huis.

○ 9.15 uur *g op 9*
○ 9.45 uur *e op 11*
○ 10.45 uur *u op 10*

8. Een vrachtauto kan 20 vaten vervoeren. Er moeten 240 vaten weggebracht worden. De auto moet ..... keer rijden.

○ 12 *n op 4*
○ 120 *i op 7*
○ 22 *p op 8*

9. In een tank gaat 500 liter olie. Vader haalt er 175 liter uit.
Dan zit er nog ..... liter in.

○ 375 *c op 11*
○ 452 *p op 6*
○ 325 *k op 10*

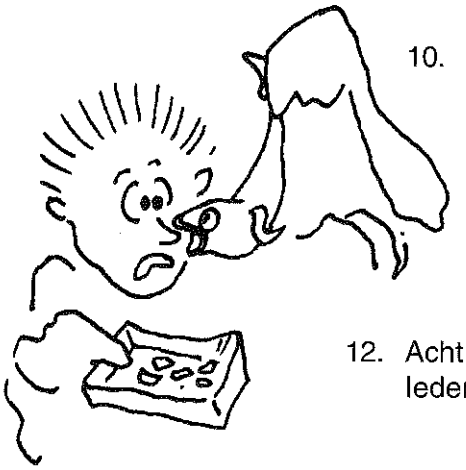

10. In mijn boek zitten 180 bladzijden.
Elke avond lees ik 20 bladzijden.
Ik moet ..... avonden lezen, om het boek uit te krijgen.

○ 9 *e op 5*
○ 16 *g op 11*
○ 8 *u op 10*

11. Twee haringen kosten bij de viskar € 4,50.
Voor € 10,- kan ik ..... haringen kopen.

○ 3 *a op 8*
○ 4 *k op 9*
○ 5 *d op 4*

12. Acht kinderen mogen 680 postzegels verdelen.
Ieder krijgt evenveel, dus elk ..... postzegels.

○ 34 *b op 12*
○ 85 *n op 3*
○ 70 *f op 9*

1	2	3	4	5	6	7	8	9	10	11	12	vraag
○	○	○	○	○	○	○	○	○	○	○	○	antwoord



1. Wim heeft 135 knikkers. Karel heeft 63 knikkers meer en Henk heeft 17 knikkers minder dan Wim. Samen hebben ze ..... knikkers.
   - ○ 215 *a op 12*
   - ○ 451 *a op 11*
   - ○ 415 *s op 3*

2. Over 10 jaar is Jaap 19 jaar. Zijn buurman is dan 3 x zo oud. Nu zijn ze samen ..... jaar.
   - ○ 76 *u op 11*
   - ○ 56 *a op 10*
   - ○ 49 *s op 2*

3. In de derde groep zitten 6 leerlingen meer dan in de tweede. In de derde groep zitten 34 leerlingen. In de tweede groep zitten ..... leerlingen.
   - ○ 26 *v op 2*
   - ○ 40 *m op 8*
   - ○ 28 *g op 1*

4. Miep heeft € 3,25. Stien heeft een kwart euro meer. Stien heeft ..... eurocent.
   - ○ 300 *k op 10*
   - ○ 325 *b op 9*
   - ○ 350 *r op 2*

5. Van de 817 kinderen zijn 450 meisjes. Er zijn ..... jongens.
   - ○ 433 *d op 1*
   - ○ 1267 *u op 12*
   - ○ 367 *s op 6*

6. Voor 16 euro kun je ..... postzegels van 80 eurocent kopen.
   - ○ 50 *k op 9*
   - ○ 40 *l op 10*
   - ○ 20 *p op 5*

7. Op € 7,50 na heeft Johan € 100,-. Johan heeft € ..... .
   - ○ € 92,50 *e op 4*
   - ○ € 107,50 *a op 1*
   - ○ € 87,50 *p op 3*

8. Het getal ..... is de helft van 1700.
   - ○ 950 *l op 1*
   - ○ 850 *o op 3*
   - ○ 750 *v op 4*

9. Mijn horloge loopt twintig minuten voor. Het is kwart voor 2. Op mijn horloge is het ..... .
   - ○ 5 over 2 *r op 9*
   - ○ 5 voor 2 *f op 7*
   - ○ 5 over 3 *c op 5*

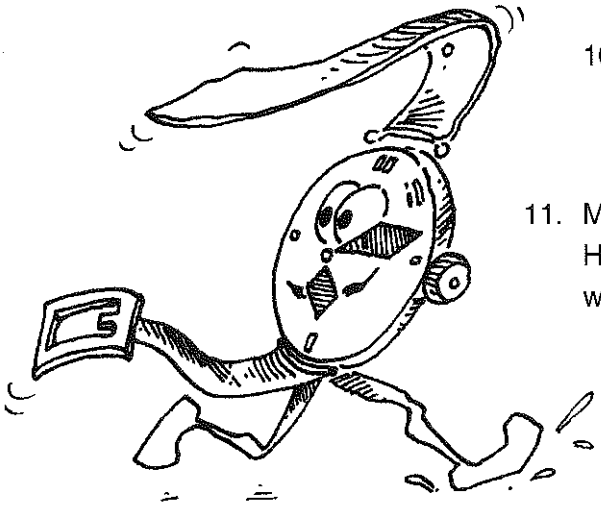

10. Ik koop in de winkel voor € 13,55. Ik geef € 25,-. Ik krijg terug € ..... .
    - ○ € 11,45 *r op 12*
    - ○ € 12,45 *h op 6*
    - ○ € 12,55 *i op 4*

11. Mijn oom kocht een horloge voor € 35,-. Het liep niet best, daarom verkocht hij het weer voor € 24,50. Hij had € ..... verloren.
    - ○ € 19,50 *a op 7*
    - ○ € 11,50 *u op 6*
    - ○ € 10,50 *e op 8*

12. Mijn horloge is twintig minuten achter. Het staat op kwart voor elf. In werkelijkheid is het ..... .
    - ○ 11.05 u. *l op 7*
    - ○ 10.25 u. *m op 5*
    - ○ 11.45 u. *k op 8*

vraag	1	2	3	4	5	6	7	8	9	10	11	12
antwoord												

Redactiesommen B - blad 10

1. Iemand koopt een huis voor € 100.000,-. Hij moet aan de notaris € 5.300,- betalen voor de gemaakte verkoop-kosten. Hoe duur wordt het huis nu voor de koper?
   - ○ € 105.300,- *h op 3*
   - ○ € 153.000,- *d op 8*
   - ○ € 100.530,- *e op 5*



2. De helft van 2010 is ..... meer dan het dubbele van 150.
   - ○ 945 *u op 10*
   - ○ 705 *s op 1*
   - ○ 750 *v op 2*

3. Een tuinman verdiende per dag € 29,00. (Ook op zaterdag.)
   Dat is per week € ..... . ('s Zondags werkt hij niet.)
   - ○ € 174,- *s op 7*
   - ○ € 290,- *f op 9*
   - ○ € 145,- *d op 11*

4. Een stuk land is 60 bij 50 meter.
   De boer spant er een draad omheen,
   dat is ..... meter lang.
   - ○ 280 *o op 4*
   - ○ 110 *g op 1*
   - ○ 220 *s op 8*

5. Elk kwartier vertrekt er een trein van het station.
   De eerste vertrekt om kwart over twaalf in de nacht.
   De tiende vertrekt om ..... .
   - ○ 2 uur *w op 12*
   - ○ kwart over 2 *n op 11*
   - ○ half 3 *o op 10*

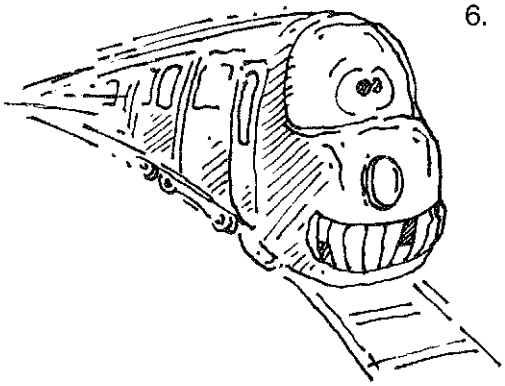

6. Achttien jongens verdelen 684 knikkers.
   Ieder krijgt ..... knikkers.
   - ○ 38 *c op 2*
   - ○ 28 *m op 10*
   - ○ 18 *h op 6*

7. Piet heeft in zes dagen 72 sommen gemaakt.
   Dat is gemiddeld per dag ..... .
   - ○ 14 *l op 7*
   - ○ 13 *k op 3*
   - ○ 12 *p op 9*

8. De helft van ..... is drie meer dan vijftig.
   - ○ 106 *t op 6*
   - ○ 103 *l op 7*
   - ○ 100 *b op 8*

9. Vader is 42 jaar. Moeder is 3 jaar later geboren.
   Over 10 jaar zijn ze samen ..... jaar.
   - ○ 101 *r op 11*
   - ○ 81 *v op 6*
   - ○ 91 *z op 1*

10. In de maand spaart Karel € 7,50. Dat is in een half jaar € ..... .
    - ○ € 75,00 *w op 2*
    - ○ € 45,00 *a op 5*
    - ○ € 27,50 *o op 12*

11. In zes dagen ving ik 36 vissen. Dat is gemiddeld per dag ..... vissen.
    - ○ 9 *m op 3*
    - ○ 8 *d op 4*
    - ○ 6 *t op 12*

12. In ieder lokaal van een school met zes lokalen, zitten 36 kinderen.
    Alleen in lokaal 2 zitten 34 kinderen.
    Hoeveel kinderen gaan er op die school?
    - ○ 216 *u op 9*
    - ○ 214 *a op 4*
    - ○ 212 *d op 5*

1	2	3	4	5	6	7	8	9	10	11	12	vraag
○	○	○	○	○	○	○	○	○	○	○	○	antwoord

1. Negen mannen verdienen € 882,00.
   Per man is dat € ..... .
   - ○ € 89,00 *v op 1*
   - ○ € 98,00 *o op 5*
   - ○ € 99,00 *u op 10*

2. Hoeveel is de helft van 120 meer dan de helft van 50?
   - ○ 35 *k op 4*
   - ○ 10 *e op 11*
   - ○ 70 *d op 12*

3. Ik koop een fietslamp voor € 13,80. Ik verkoop hem voor € 15,00.
   Ik heb € ..... gewonnen.
   - ○ € 2,20 *m op 2*
   - ○ € 1,20 *i op 10*
   - ○ € 2,80 *z op 6*

4. Piet loopt 4 km per uur. Jan loopt 5½ km per uur.
   Jan loopt in 2 uur ..... meter meer dan Piet.
   - ○ 1750 *r op 9*
   - ○ 1500 *c op 4*
   - ○ 3000 *a op 1*

5. Zeven mannen verdelen 994 euro, dat is ..... euro per man.
   - ○ 142 *g op 12*
   - ○ 138 *h op 11*
   - ○ 124 *m op 7*

6. Karel koopt drie pakjes met stickers, van € 1,20 per pakje, en nog voor € 1,30 snoepjes. Samen voor € ..... .
   - ○ € 2,50 *s op 10*
   - ○ € 4,90 *n op 6*
   - ○ € 7,50 *t op 3*

7. Moeder koopt in een aantal winkels en betaalt € 33,25, € 83,00, € 32,75 en nog € 6,75. Van twee briefjes van € 100,- heeft ze dan nog € ..... over.
   - ○ € 55,25 *b op 8*
   - ○ € 45,75 *s op 5*
   - ○ € 44,25 *n op 11*

8. De rechte weg van A naar B is 40 km. Dezelfde weg, maar dan van A naar C is 70 km. Karel fietst van B naar C met met een snelheid van 15 km per uur. Hij moet ..... uur fietsen.
   - ○ 3 *t op 5*
   - ○ 5 *u op 12*
   - ○ 2 *n op 3*

9. In acht dagen verkoopt een boer 2408 eieren.
   Dat is elke dag gemiddeld ..... eieren.
   - ○ 310 *c op 7*
   - ○ 301 *i op 8*
   - ○ 401 *t op 1*

10. Een weg is 4 meter breed. Aan beide zijden maakt men hem 1½ meter breder.
    De breedte van de weg wordt dan ..... meter.
    - ○ 5½ *s op 6*
    - ○ 7 *d op 7*
    - ○ 7½ *w op 3*

11. Op een vloertje liggen 4 rijen van 5 tegels. Men legt er nog aan de smalle kant nog 2 rijen bij. Er liggen nu ..... tegels.
    - ○ 30 *f op 2*
    - ○ 24 *z op 8*
    - ○ 28 *g op 9*

12. Frank brengt wekelijks 224 kranten rond.
    Dat is in een jaar ..... kranten.
    - ○ 1568 *h op 9*
    - ○ 11648 *a op 2*
    - ○ 11448 *u op 4*

vraag	1	2	3	4	5	6	7	8	9	10	11	12
antwoord												

Redactiesommen B - blad 12

1. Gerrit loopt in een uur 4200 meter. Hij loopt 4½ uur.
   Hoeveel meter heeft hij gelopen?
   - ○ 18900 — *w op 1*
   - ○ 18600 — *a op 6*
   - ○ 18000 — *t op 5*

2. Hoeveel is de helft van 32 minder dan het dubbele van 32?
   - ○ 32 — *r op 11*
   - ○ 64 — *g op 10*
   - ○ 48 — *e op 4*

3. Clara heeft € 3,20. Willie heeft een halve euro meer.
   Samen hebben ze € ..... .
   - ○ € 3,70 — *k op 4*
   - ○ € 5,90 — *p op 7*
   - ○ € 6,90 — *f op 9*

4. Van half 11 tot kwart over 11 duurt ..... minuten.
   - ○ 20 — *d op 6*
   - ○ 30 — *a op 11*
   - ○ 45 — *b op 10*

5. In een uur kan Johan 18 km fietsen.
   Hij fietst van acht uur tot elf uur.
   Hij heeft dan ..... km gefietst.
   - ○ 144 — *u op 7*
   - ○ 54 — *t op 3*
   - ○ 88 — *c op 5*

6. Vader eet gemiddeld per dag 6 boterhammen.
   Henk eet er één minder.
   In een week eten ze samen ..... boterhammen.
   - ○ 55 — *h op 9*
   - ○ 66 — *i op 8*
   - ○ 77 — *o op 11*



7. Mijn kleine zus is drie jaar. Ze is ..... dagen oud.
   - ○ 996 — *d op 8*
   - ○ 995 — *i op 9*
   - ○ 1095 — *a op 2*

8. Jaap geeft de helft van z'n 96 knikkers weg.
   Hij heeft er nog ..... over.
   - ○ 48 — *o op 8*
   - ○ 52 — *p op 1*
   - ○ 56 — *w op 3*

9. Van 27 augustus tot 15 september duurt ..... dagen.
   - ○ 19 — *m op 12*
   - ○ 20 — *v op 11*
   - ○ 17 — *u op 1*



10. Aan mijn krantenwijk verdien ik € 48,50 per maand.
    Na een half jaar heb ik € ..... verdiend.
    - ○ € 485,00 — *a op 12*
    - ○ € 339,50 — *n op 2*
    - ○ € 291,00 — *s op 6*

11. Het getal 99 is ..... minder dan 2000.
    - ○ 1110 — *z op10*
    - ○ 1901 — *r op 5*
    - ○ 1191 — *n op 3*

12. Van kwart over acht tot tien minuten voor negen duurt ..... minuten.
    - ○ 35 — *t op 7*
    - ○ 45 — *a op 4*
    - ○ 50 — *n op 2*

1	2	3	4	5	6	7	8	9	10	11	12	vraag
○	○	○	○	○	○	○	○	○	○	○	○	antwoord

Ben je klaar?
Vraag dan toets 2 van deel B

1. Een boerin verkoopt 50 eieren voor 24 eurocent per stuk.
Hoeveel ontvangt zij, als zij bovendien voor een aantal 'kneusjes' nog € 2,75 ontvangt?

○ € 14,75 *p op 7*
○ € 12,75 *o op 6*
○ € 9,95 *u op 8*

2. Van een € 2,50 geef ik 2/5 deel uit.
Hoeveel eurocent houd ik over ?

○ 100 *p op 4*
○ 150 *e op 5*
○ 175 *v op 7*

3. Een trein vertrekt uit Amsterdam om 9.45 uur en komt in Den Haag aan om 10.30 uur. Hoe lang is die trein onderweg geweest?

○ 75 min. *d op 11*
○ 45 min. *s op 12*
○ 30 min. *f op 9*



4. Vader tankt voor € 75,20 en koopt nog wat olie voor € 22,60. Van een briefje van honderd krijgt hij € ..... terug.

○ € 1,20 *m op 10*
○ € 3,20 *n op 12*
○ € 2,20 *i op 11*

5. Jan maakte in zijn dictees achtereenvolgens 4, 3, 0, 4, 5 en 2 fouten.
Dat is gemiddeld per keer ..... fouten.

○ 2 *h op 5*
○ 3 *s op 6*
○ 4 *c op 11*

6. Een trein vertrekt om 8.57 uur uit Heerenveen naar Zwolle.
Daar is hij om 9.42 uur. De reis duurt ..... minuten.

○ 55 *n op 12*
○ 115 *o op 7*
○ 45 *a op 8*

7. De vader is 40 jaar. De moeder is 35 jaar. De oom is 7 jaar ouder dan de vader. De tante is 2 jaar jonger dan de moeder.
Hoeveel jaar is de moeder jonger dan de oom?

○ 12 *e op 3*
○ 9 *n op 2*
○ 18 *d op 1*

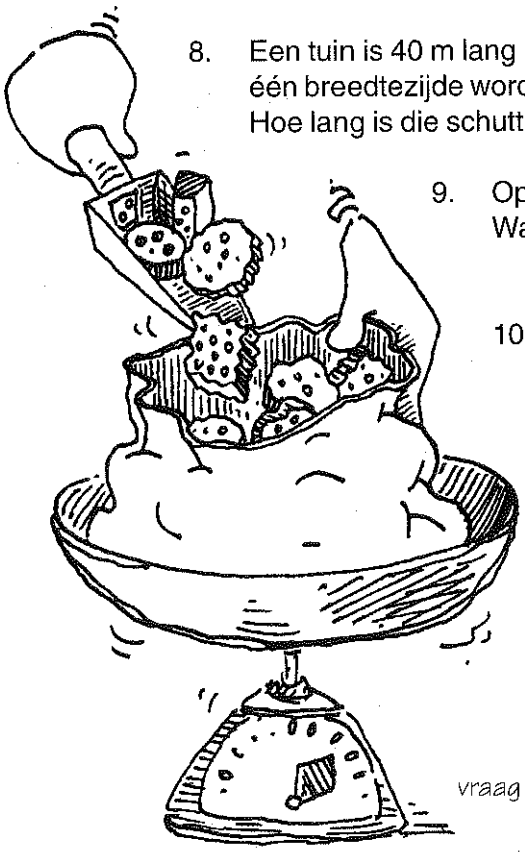

8. Een tuin is 40 m lang en 15 m breed. Aan twee lengtezijden en één breedtezijde wordt een schutting geplaatst.
Hoe lang is die schutting?

○ 110 *g op 8*
○ 95 *l op 9*
○ 70 *k op 10*

9. Op een oud gebouw staat: Gebouwd in MDCCXXV.
Wanneer is dat gebouw gebouwd?

○ 1215 *h op 3*
○ 1725 *d op 4*
○ 1925 *u op 2*

10. In één ons gaan 12 koekjes.
Hoeveel ons heb je nodig om aan 40 kinderen ieder drie koekjes te geven?

○ 2 *d op 9*
○ 10 *e op 10*
○ 4 *z op 6*

11. Jan betaalt voor zijn vader € 5,30 en € 16,80. Dat is samen € ..... minder dan € 25,00.

○ € 3,90 *ij op 1*
○ € 2,90 *r op 2*
○ € 4,50 *m op 3*

12. De helft van ..... is 20 minder dan 1000.

○ 1960 *v op 1*
○ 1980 *ij op 4*
○ 520 *z op 5*

vraag	1	2	3	4	5	6	7	8	9	10	11	12
antwoord												

Redactiesommen B - blad 14

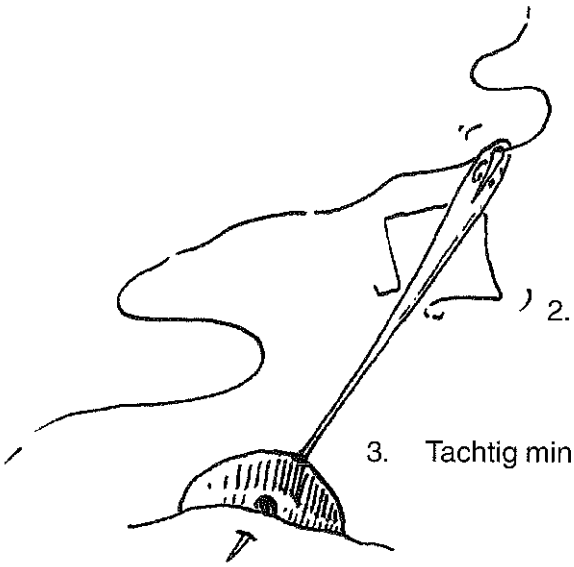

1. Moeder heeft zeven doosjes met naalden gekocht. In elk doosje zitten 16 naalden. Samen heeft ze ..... naalden.
   - ○ 102 — *k op 1*
   - ○ 112 — *e op 2*
   - ○ 142 — *g op 10*

2. Op een school zijn 194 kinderen. Er zijn 103 meisjes en ..... jongens.
   - ○ 91 — *w op 6*
   - ○ 97 — *p op 9*
   - ○ 191 — *ij op 3*

3. Tachtig minuten duurt ..... minuten korter dan anderhalf uur.
   - ○ 10 — *p op 10*
   - ○ 30 — *b op 8*
   - ○ 40 — *o op 2*

4. In de kamer is het 18 graden. In de koelkast 4 graden. Dat is een temperatuursverschil van ..... graden.
   - ○ 22 — *c op 11*
   - ○ 14 — *r op 1*
   - ○ 16 — *h op 4*

5. Het is half 1. Anderhalf uur geleden was het ..... .
   - ○ 12 uur — *z op 1*
   - ○ 11 uur — *m op 9*
   - ○ half 11 — *p op 12*



6. Wim heeft 83 knikkers. Dirk en Bob hebben samen evenveel als Wim. Wim, Dirk en Bob hebben samen ..... knikkers.
   - ○ 83 — *g op 5*
   - ○ 166 — *o op 7*
   - ○ 123 — *d op 2*

7. De helft van 18 is evenveel als het derde deel van ..... .
   - ○ 9 — *l op 12*
   - ○ 3 — *k op 6*
   - ○ 27 — *e op 4*

8. In de bijkeuken is het 12 graden. In de ijskast vriest het 14 graden. Dat is een temperatuursverschil van ..... graden.
   - ○ 26 — *e op 12*
   - ○ 28 — *f op 8*
   - ○ 2 — *t op 5*

9. Vijf kinderen verdelen 125 eikels. Elk krijgt ..... eikels.
   - ○ 20 — *u op 7*
   - ○ 25 — *g op 3*
   - ○ 30 — *s op 6*

10. Een kaart kost € 2,10. Voor tien euro kan ik ..... kaarten kopen en houd dan ook nog € 1,60 over.
    - ○ 5 — *u op 9*
    - ○ 6 — *t op 3*
    - ○ 4 — *r op 8*

11. Het is 20 over 6 op onze klok, maar hij loopt een half uur achter. In werkelijkheid is het ..... .
    - ○ 10 over 6 — *b op 10*
    - ○ 10 over 7 — *g op 7*
    - ○ 10 voor 7 — *j op 11*

12. Het is 10 over 5. De klok wijst aan: 10 voor half 6. De klok loopt ..... minuten voor.
    - ○ 25 — *ij op 11*
    - ○ 10 — *n op 5*
    - ○ 60 — *t op 4*

1	2	3	4	5	6	7	8	9	10	11	12	vraag
○	○	○	○	○	○	○	○	○	○	○	○	antwoord

1. Gert kan goed knikkeren. Maandag begint hij met 95 knikkers. Op maandag, dinsdag, woensdag en donderdag wint hij elke dag 25 knikkers. Nu heeft Gert ..... knikkers.
   - ○ 145 *o op 1*
   - ○ 125 *m op 6*
   - ○ 195 *g op 10*

2. In een bos staan 635 bomen. Op maandag worden er 20 gehakt, op dinsdag 10 en op woensdag 10. Er staan nu nog maar ..... bomen.
   - ○ 595 *a op 2*
   - ○ 605 *s op 11*
   - ○ 665 *b op 5*

3. Vader is 56 jaar. Moeder is 3 jaar jonger dan vader. Johan is 32 jaar jonger dan moeder. Vader is ..... jaar ouder dan Johan.
   - ○ 35 *n op 9*
   - ○ 21 *ij op 3*
   - ○ 53 *b op 8*

4. Hoeveel is de helft van 500 meer dan 200?
   - ○ 150 *d op 7*
   - ○ 50 *e op 5*
   - ○ 25 *c op 9*

5. Hoeveel is de helft van 840 meer dan 300?
   - ○ 120 *t op 4*
   - ○ 195 *l op 8*
   - ○ 140 *v op 9*

6. Willie, Karla, Agnes en Sylvia mogen 48 knikkers verdelen. Ze krijgen ieder ..... knikkers.
   - ○ 14 *c op 2*
   - ○ 12 *e op 11*
   - ○ 16 *n op 12*

7. Van 9 uur tot 2 uur duurt ..... uur korter dan van 8 uur tot 4 uur.
   - ○ 2 *h op 11*
   - ○ 3 *t op 3*
   - ○ 5 *l op 10*

8. Mijn schrift is 16 cm lang en 21 cm breed. Alle kanten van het schrift zijn samen ..... cm.
   - ○ 37 *g op 1*
   - ○ 74 *v op 7*
   - ○ 53 *d op 4*

9. Een jongen begint met 350 knikkers. Hij wint er 120 en verliest er dan weer 80. Hij heeft nu ..... knikkers.
   - ○ 490 *w op 2*
   - ○ 390 *r op 12*
   - ○ 150 *k op 6*



10. Een slak loopt gemiddeld 80 cm per uur. Over 6 uur heeft hij dan ..... cm afgelegd.
    - ○ 160 *e op 2*
    - ○ 320 *o op 7*
    - ○ 480 *a op 8*

11. In het eerste leslokaal zitten 42 leerlingen, in het tweede 39, in het derde 50, in het vierde 45, in het vijfde 38 en in het zesde 34. Hoeveel kinderen gaan er naar die school?
    - ○ 188 *k op 12*
    - ○ 248 *n op 6*
    - ○ 268 *h op 4*

12. Klaas heeft 156 knikkers. Wim heeft er 12 minder. Johan heeft er 328. Samen hebben ze ..... knikkers.
    - ○ 494 *k op 4*
    - ○ 496 *f op 6*
    - ○ 628 *r op 1*

vraag	1	2	3	4	5	6	7	8	9	10	11	12
antwoord												

Redactiesommen B - blad 16



1. Jan, Kees en Gerard hebben samen 450 zegels. Kees heeft er 65.Gerard heeft 85. Hoeveel zegels heeft Jan?
   - ◯ 300 — *e op 4*
   - ◯ 150 — *u op 2*
   - ◯ 95 — *p op 9*

2. Marie is 8 jaar. Vader is 5 x zo oud. Samen zijn ze ..... jaar.
   - ◯ 40 — *m op 7*
   - ◯ 48 — *o op 3*
   - ◯ 58 — *k op 11*

3. Moeder is 4 jaar jonger dan vader. Vader is 41 jaar. Samen zijn ze ..... jaar.
   - ◯ 78 — *d op 10*
   - ◯ 37 — *n op 12*
   - ◯ 73 — *h op 11*

4. De getallen van 100 tot en met 105 zijn samen ..... .
   - ◯ 615 — *l op 7*
   - ◯ 505 — *c op 10*
   - ◯ 515 — *o op 6*

5. De helft van 4 x 10 is ..... minder dan 25.
   - ◯ 5 — *e op 8*
   - ◯ 15 — *u op 9*
   - ◯ 20 — *i op 12*

6. In een zaal zitten de 1ste avond 235 mensen. De volgende avond zijn er 325 mensen en de derde avond 400. Er waren samen ..... mensen in de zaal.
   - ◯ 770 — *s op 1*
   - ◯ 960 — *e op 12*
   - ◯ 975 — *e op 8*

7. Jan gooit op de sjoelbak 126. Piet 95. Hoeveel gooide Jan meer?
   - ◯ 41 — *g op 1*
   - ◯ 31 — *r op 5*
   - ◯ 21 — *u op 8*

8. Een school heeft 4 groepen met 30 leerlingen en 4 groepen met 32 leerlingen. Er gaan ..... leerlingen naar die school.
   - ◯ 248 — *e op 9*
   - ◯ 242 — *m op 2*
   - ◯ 240 — *g op 3*

9. Hoeveel is de helft van 300 meer dan de helft van 220?
   - ◯ 40 — *l op 2*
   - ◯ 70 — *t op 5*
   - ◯ 140 — *s op 4*

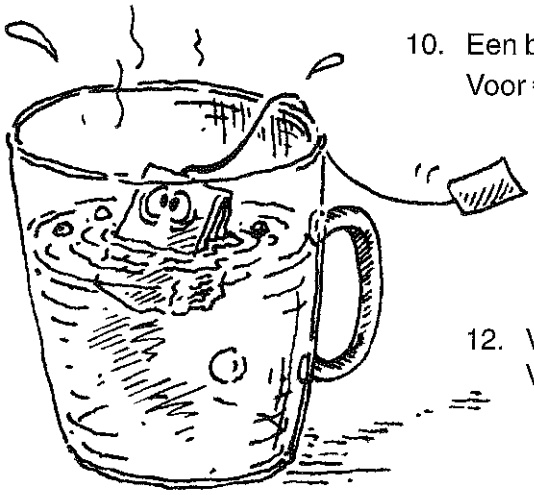

10. Een broodje knakworst kost € 3,75. Voor € 15,- kan ik ..... broodjes kopen.
    - ◯ 5 — *w op 10*
    - ◯ 3 — *i op 7*
    - ◯ 4 — *k op 6*

11. 5 pakjes thee van € 1,80 per pakje kost ..... eurocent.
    - ◯ 900 — *v op 1*
    - ◯ 800 — *s op 4*
    - ◯ 780 — *t op 5*

12. Van 25 blokken kan ik een toren bouwen. Van 200 blokken kan ik ..... torens bouwen.
    - ◯ 6 — *d op 3*
    - ◯ 8 — *j op 11*
    - ◯ 10 — *g op 6*

1	2	3	4	5	6	7	8	9	10	11	12	vraag
◯	◯	◯	◯	◯	◯	◯	◯	◯	◯	◯	◯	antwoord

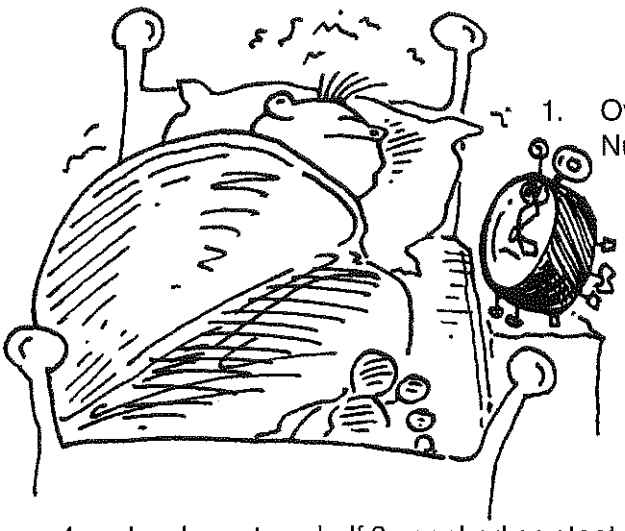

1. Over 5 minuten is het vijf voor 11.
Nu is het ..... .
○ 10 voor 11 *p op 5*
○ half 11 *w op 6*
○ 10 voor half 11 *c op 4*

2. Piet gooit op het knikkerbord 595.
Theo 612.
Theo gooide ..... meer dan Piet.
○ 695 *b op 11*
○ 17 *s op 1*
○ 565 *g op 2*

3. Ik denk aan een getal.
Het is 12 meer dan de helft van 50.
Het getal is ..... .
○ 62 *l op 3*
○ 38 *h op 10*
○ 37 *e op 7*

4. Jacob gaat om half 8 naar bed en staat om 7 uur 's morgens op.
Jacob heeft ..... uur geslapen.
○ 15 u + 30 min *e op 2*
○ 11 u + 30 min *a op 10*
○ 12 u + 30 min *d op 1*

5. Ik denk aan een getal. Het is 10 meer dan de helft van 100.
Het getal is ..... .
○ 40 *h op 4*
○ 60 *v op 6*
○ 110 *ij op 12*

6. Een euro is ..... eurocent minder dan 2½ euro.
○ 150 *h op 9*
○ 350 *l op 3*
○ 100 *v op 7*

7. Iedere dag doet Annie 20 eurocent in haar spaarpot en Karel 25 eurocent.
Hoeveel eurocent hebben ze samen na 14 dagen gespaard?
○ 320 *k op 5*
○ 280 *ij op 4*
○ 630 *l op 12*

8. 625 is ..... minder dan 709.
○ 134 *p op 1*
○ 84 *t op 2*
○ 66 *i op 5*

9. Bij een wedstrijd waren 648 bezoekers.
Er gingen 329 bezoekers weg.
Er bleven nog ..... bezoekers over.
○ 319 *a op 11*
○ 321 *h op 8*
○ 329 *u op 10*

10. Bij een wedstrijd zijn 834 mensen.
Er gaan 328 mensen weg.
Nu zijn er nog ..... mensen over.
○ 506 *r op 3*
○ 514 *i op 6*
○ 518 *c op 7*

11. Van een touw van 2 m en 50 cm, knip ik 59 cm af.
Nu is het touw ..... m en ..... cm.
○ 2 m + 1 cm *o op 12*
○ 1 m + 91cm *r op 8*
○ 2 m + 9 cm *n op 7*

12. Ik denk aan een getal. Het is 20 meer dan 690. Het getal is ..... .
○ 710 *i op 4*
○ 670 *l op 9*
○ 890 *o op 8*

vraag	1	2	3	4	5	6	7	8	9	10	11	12
antwoord												



1. Het twintigste deel van 5 euro is ..... eurocent.
   - ○ 25 — *m op 1*
   - ○ 50 — *k op 3*
   - ○ 125 — *l op 8*

2. 90 gram is ..... gram meer dan een half ons.
   - ○ 10 — *h op 5*
   - ○ 40 — *d op 7*
   - ○ 190 — *v op 9*

3. Een zijde van een vierkant is 20 cm. De omtrek is ..... cm.
   - ○ 20 — *d op 2*
   - ○ 40 — *c op 1*
   - ○ 80 — *i op 8*

4. Van een rechthoek is de lengte 5 dm en de breedte 4 dm. De omtrek is ..... dm.
   - ○ 9 — *g op 12*
   - ○ 14 — *a op 4*
   - ○ 18 — *l op 6*

5. Een bus met suiker weegt 950 gram. De inhoud van de bus is 750 gram. De bus weegt ..... gram.
   - ○ 200 — *n op 12*
   - ○ 150 — *m op 2*
   - ○ 250 — *n op 7*

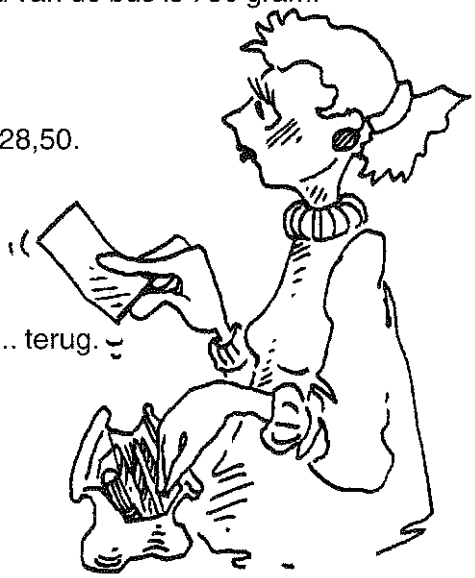

6. Bij winkelier A ziet moeder een mantel van € 328,50. Bij winkelier B een zelfde mantel voor € 335,-. Daar is de mantel € ..... duurder.
   - ○ € 13,50 — *o op 11*
   - ○ € 7,50 — *g op 10*
   - ○ € 6,50 — *a op 2*

7. Moeder moet betalen € 36,80. Ze geeft een briefje van 100 euro en ze krijgt ..... terug.
   - ○ € 74,20 — *z op 3*
   - ○ € 64,20 — *p op 1*
   - ○ € 63,20 — *e op 9*

8. 15 is het ..... deel van 75.
   - ○ vierde — *d op 8*
   - ○ vijfde — *e op 5*
   - ○ zevende — *c op 9*

9. Een trein vertrekt altijd om 7 uur 13. Vandaag heeft de trein een vertraging van een half uur. De trein vertrekt dus om ..... .
   - ○ 7.43 uur — *e op 11*
   - ○ 7.33 uur — *h op 6*
   - ○ 6.43 uur — *u op 7*

10. Van half 7 tot 9 uur duurt ..... minuten.
    - ○ 150 — *r op 10*
    - ○ 120 — *u op 4*
    - ○ 130 — *h op 6*

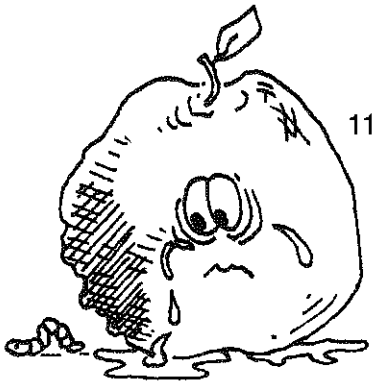

11. Eerst kostte een fiets € 625,-. Nu kost dezelfde fiets € 748,-. Hij is ..... euro in prijs verhoogd.
    - ○ 123 — *t op 4*
    - ○ 117 — *s op 10*
    - ○ 223 — *i op 11*

12. Een winkelier koopt 150 kg appels. Een derde deel is verrot. Hoeveel kg kan hij nog goed verkopen?
    - ○ 50 — *t op 12*
    - ○ 150 — *s op 5*
    - ○ 100 — *n op 3*

1	2	3	4	5	6	7	8	9	10	11	12	vraag
○	○	○	○	○	○	○	○	○	○	○	○	antwoord

Ben je klaar?
Vraag dan toets 3 van deel B



1. Gerrit koopt 3 plantjes van 95 eurocent per stuk. Van € 3,- krijgt hij ..... eurocent terug.
   - ○ 15 — *e op 2*
   - ○ 105 — *a op 11*
   - ○ 35 — *u op 4*

2. Uit een plankje van 2½ m kan ik ..... plankjes zagen van 65 cm.
   - ○ 4 — *o op 12*
   - ○ 3 — *e op 8*
   - ○ 5 — *i op 3*

3. 85 boekjes worden verdeeld onder 9 kinderen. Elk kind krijgt ..... boekjes. Er blijven nog 4 boekjes over.
   - ○ 8 — *p op 12*
   - ○ 9 — *l op 6*
   - ○ 7 — *c op 11*

4. Van 72 schriften kan ik ..... stapels van 12 maken.
   - ○ 6 — *e op 10*
   - ○ 7 — *h op 1*
   - ○ 8 — *m op 2*

5. In een grote fles zit 1 liter water. Ik giet de helft eruit. Ik houd ..... cl over.
   - ○ 250 — *n op 8*
   - ○ 500 — *h op 5*
   - ○ 50 — *i op 7*

6. De trein vertrekt om kwart over acht. Het is nu half acht. We moeten nog ..... min wachten.
   - ○ 25 — *k op 9*
   - ○ 30 — *l op 10*
   - ○ 45 — *s op 12*

7. Een kwart van 80 is ..... minder dan de helft van 80.
   - ○ 20 — *n op 1*
   - ○ 40 — *k op 6*
   - ○ 60 — *z op 7*

8. Drie Amerikaanse dollars kosten ongeveer € 2,70. 27 dollars kosten ongeveer ..... euro
   - ○ 9 — *n op 9*
   - ○ 25 — *r op 11*
   - ○ 10 — *a op 10*

9. Onder 17 kinderen worden 85 boekjes verdeeld. Elk kind krijgt evenveel, namelijk ..... boekjes.
   - ○ 5 — *t op 4*
   - ○ 6 — *u op 7*
   - ○ 7 — *h op 8*

10. Een vierkant heeft zijden van 15 cm. De omtrek is ..... dm.
    - ○ 30 — *p op 5*
    - ○ 60 — *m op 4*
    - ○ 6 — *d op 9*

11. Ik heb 15 euro, en wissel dit geld in voor munten van 50 eurocent. Ik krijg ..... munten.
    - ○ 750 — *n op 6*
    - ○ 75 — *o op 3*
    - ○ 30 — *v op 5*

12. Anderhalve meter is gelijk aan ..... cm.
    - ○ 15 — *p op 1*
    - ○ 150 — *s op 3*
    - ○ 75 — *a op 2*

vraag	1	2	3	4	5	6	7	8	9	10	11	12
antwoord												

Redactiesommen B - blad 20

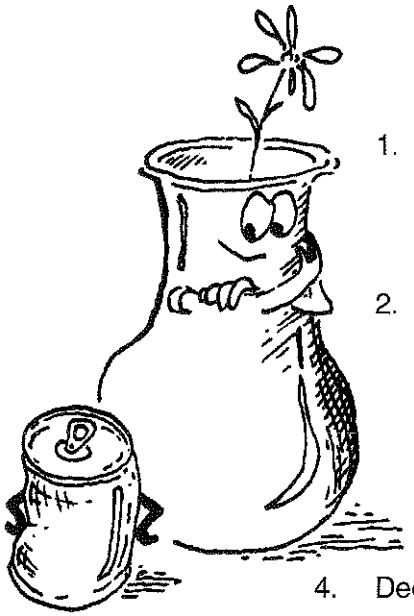

1. Iemand moet € 63,75 betalen. Hij geeft een briefje van € 50,- en nog twee briefjes van € 10,-. Hij krijgt € ..... terug.
   - ○ € 6,25 *n op 1*
   - ○ € 7,25 *u op 2*
   - ○ € 3,75 *s op 3*

2. Voor € 10,- krijg ik ..... munten van 20 euro.
   - ○ 200 *p op 12*
   - ○ 40 *d op 11*
   - ○ 50 *r op 4*

3. In een vaas gaat twee liter water. In een blik gaat 85 cl water. De inhoud van de vaas is ..... cl groter.
   - ○ 115 *d op 5*
   - ○ 125 *b op 4*
   - ○ 285 *o op 10*

4. Deel 102 door 17. Vermenigvuldig de uitkomst met 3.
   - ○ 45 *v op 6*
   - ○ 2 *m op 7*
   - ○ 18 *a op 8*

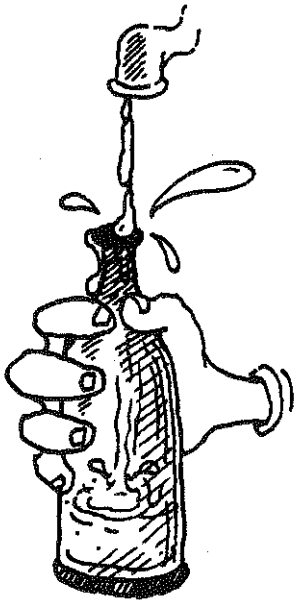

5. 83 cm is ..... cm langer dan een halve meter.
   - ○ 33 *r op 7*
   - ○ 23 *n op 6*
   - ○ 32 *t op 5*

6. Het is 10 minuten voor 10. 35 minuten geleden was het ..... .
   - ○ kwart over 10 *g op 8*
   - ○ kwart over 9 *n op 11*
   - ○ kwart voor 10 *h op 9*

7. In vijf flessen doe ik samen vier liter water. In elke fles doe ik evenveel, namelijk ..... cl.
   - ○ 8 *k op 5*
   - ○ 80 *b op 6*
   - ○ 800 *l op 7*

8. Het vierde deel van 1 hl benzine is ..... liter.
   - ○ 250 *v op 9*
   - ○ 25 *a op 10*
   - ○ 2½ *e op 12*

9. Vorige week kostten de schoenen € 125,75. Nu kosten ze € 123,50. Ze werden € ..... goedkoper.
   - ○ € 8,25 *u op 10*
   - ○ € 2,75 *s op 11*
   - ○ € 2,25 *t op 12*

10. Vader heeft een tegelpleintje gelegd van gewassen grindtegels, in 8 rijen van 7 tegels. In 't totaal bestaat het pleintje uit ..... tegels.
    - ○ 45 *g op 2*
    - ○ 56 *o op 3*
    - ○ 63 *c op 4*

11. Een zijde van een vierkant is 13 cm. De omtrek is ..... cm.
    - ○ 39 *k op 8*
    - ○ 52 *b op 9*
    - ○ 130 *h op 10*

12. Een fles slaolie zit 78 cl. Dat is ..... cl minder dan een liter.
    - ○ 121 *l op 3*
    - ○ 12 *u op 1*
    - ○ 22 *o op 2*

1	2	3	4	5	6	7	8	9	10	11	12	vraag
○	○	○	○	○	○	○	○	○	○	○	○	antwoord

1. Een auto rijdt gemiddeld 16 km op 1 liter benzine.
Hoeveel liter verbruikt de auto over een afstand van 112 km?

○ 6 *w op 1*
○ 7 *i op 8*
○ 12 *ij op 12*



2. Een auto rijdt gemiddeld 20 km op 1 liter diesel.
Hoeveel km kan hij rijden op 12 liter diesel?

○ 240 *v op 5*
○ 180 *l op 2*
○ 360 *g op 11*

3. Een rekenmachientje kost € 12,-.
Hoeveel rekenmachientje kan je kopen voor 100 euro.

○ 12 *p op 10*
○ 9 *s op 3*
○ 8 *t op 12*

4. Paul verliest op een dag eerst 12 knikkers. Da's pech hebben! Maar later wint hij er 10 en tenslotte verliest hij er toch weer 17. Nu heeft hij er nog 5 over. Niet zoveel. Met hoeveel knikkers is hij die dag begonnen?

○ 39 *a op 4*
○ 24 *s op 7*
○ 34 *m op 10*

5. Een meter, twee decimeter en zes centimeter is samen ..... cm.

○ 126 *l op 3*
○ 76 *k op 5*
○ 206 *a op 9*

6. Het tiende deel van 1000 is ..... minder dan de helft van 1000.

○ 250 *u op 6*
○ 500 *z op 8*
○ 400 *n op 10*

7. Een trein vertrekt om 8.45 uur. Hij komt op de plaats van bestemming aan om kwart over 11. Hij was ..... minuten onderweg.

○ 245 *ij op 7*
○ 230 *w op 6*
○ 150 *e op 11*

8. Vijf uur bestaat uit ..... minuten.

○ 300 *e op 9*
○ 500 *k op 8*
○ 360 *o op 5*

9. Acht halve pizza's zijn evenveel als ..... hele.

○ 4 *e op 4*
○ 16 *r op 3*
○ 12 *s op 10*

10. Het is in de koelkast 4 graden.
In de vrieskist vriest het 15 graden.
Dat scheelt ..... graden.

○ 11 *n op 2*
○ 19 *t op 1*
○ 9 *c op 5*

11. Op een weg mag een auto 80 km per uur rijden.
De politie betrapt een automobilist op 112 km per uur.
Dat is ..... km te snel.

○ 42 *f op 3*
○ 32 *i op 6*
○ 23 *g op 8*

12. Uit een plank van 2½ meter lang kan ik ..... plankjes van 35 cm zagen.

○ 6 *w op 1*
○ 7 *e op 2*
○ 8 *k op 12*

vraag	1	2	3	4	5	6	7	8	9	10	11	12
antwoord												

Redactiesommen B - blad 22

1. Een koe geeft per dag gemiddeld 20 liter melk. Dat is ..... hl in 30 dagen.
   - ◯ 600 *m op 11*
   - ◯ 60 *a op 5*
   - ◯ 6 *i op 4*

2. A, B, en C verdelen € 600,-. A krijgt de helft. B krijgt een derde deel en C krijgt de rest.Hoeveel krijgen A en C samen?
   - ◯ 600 *u op 10*
   - ◯ 300 *l op 4*
   - ◯ 400 *t op 10*

3. Corrie heeft een touw van 8 meter lang. Ze snijdt er een stukvan 2½ meter af. Ze houdt ..... dm over.
   - ◯ 5½ *k op 9*
   - ◯ 55 *a op 6*
   - ◯ 155 *u op 3*

4. Emmie is oud: 12 jaar en 8 maanden. Thea is 15 maanden jonger. Thea is oud: ..... jaar en ..... maanden.
   - ◯ 10 j + 7 mnd *v op 8*
   - ◯ 13 j + 11 mnd *f op 6*
   - ◯ 11 j + 5 mnd *e op 11*

5. Ab, Bernhard en Conny verdelen € 750,-. Ab krijgt een derde deel. Bernhard krijgt € 50,-. Conny krijgt de rest, dat is € ..... .
   - ◯ € 250,- *g op 7*
   - ◯ € 350,- *w op 2*
   - ◯ € 450,- *c op 5*

6. Welk getal is 16 groter dan 25?
   - ◯ 41 *n op 12*
   - ◯ 51 *u op 1*
   - ◯ 9 *a op 11*

7. Ik denk aan een getal. Het is 8 keer zoveel als de helft van 24. Mijn getal is ..... .
   - ◯ 112 *d op 10*
   - ◯ 96 *m op 7*
   - ◯ 88 *p op 12*

8. De zon gaat onder om 20.08 uur. De zon komt op om 5.22 uur. Hoe lang duurt de nacht?
   - ◯ 9 u + 14 min *e op 2*
   - ◯ 15 u + 14 min *ij op 6*
   - ◯ 14 u + 30 min *g op 9*

9. Een weg is 500 m lang. Van het begin tot het eind staat er om de 50 meter een lantaarnpaal. Er staan langs die weg ..... lantaarnpalen.
   - ◯ 11 *n op 9*
   - ◯ 10 *c op 5*
   - ◯ 20 *d op 8*



10. Vermenigvuldig 45 met 14. Tel bij de uitkomst de helft van 27 op.
    - ◯ 643½ *e op 8*
    - ◯ 630½ *h op 4*
    - ◯ 657½ *f op 7*

11. Een trein moet om 20.57 uur in Maastricht aankomen. De trein komt echter 10 minuten te laat. De trein komt aan om ..... uur.
    - ◯ 21.07 *m op 1*
    - ◯ 20.47 *v op 12*
    - ◯ 21.17 *w op 3*

12. Het is 10 voor 9 in de morgen. Over 3½ uur is het ..... .
    - ◯ 10 voor 12 *o op 2*
    - ◯ 20 voor 1 *p op 1*
    - ◯ 20 over 12 *d op 3*

1	2	3	4	5	6	7	8	9	10	11	12	vraag
◯	◯	◯	◯	◯	◯	◯	◯	◯	◯	◯	◯	antwoord

1. Een trein hoort om 10 voor 1 aan te komen.
Hij heeft echter een kwartier vertraging en komt aan om ..... .

- ◯ 5 over 1 — *o op 1*
- ◯ 5 over half 1 — *o op 5*
- ◯ kwart voor 12 — *u op 6*

2. De omtrek van een rechthoek van 38 bij 22 mm is ..... cm.

- ◯ 12 — *s op 8*
- ◯ 120 — *t op 7*
- ◯ 112 — *i op 9*

3. Een winkelier koopt 480 eieren.
Het derde deel is gebroken tijdens het vervoer.
Hoeveel eieren zijn nog heel?

- ◯ 420 — *a op 12*
- ◯ 360 — *o op 8*
- ◯ 320 — *s op 7*

4. Welk getal is 20 minder dan de helft van 168?

- ◯ 64 — *o op 5*
- ◯ 84 — *t op 2*
- ◯ 144 — *p op 3*

5. Drie plakplaatjes kosten samen € 0,45.
Voor 12 plaatjes moet je € ..... betalen.

- ◯ € 1,40 — *m op 10*
- ◯ € 1,80 — *p op 12*
- ◯ € 2,00 — *n op 5*

6. Piet maakt 25 sommen. Het vijfde deel had hij niet goed begrepen.
Hij had ..... sommen goed.

- ◯ 5 — *w op 12*
- ◯ 15 — *v op 11*
- ◯ 20 — *g op 6*

7. Het is 3 juni. Veertien dagen geleden was het ..... .

- ◯ mei 17 — *e op 4*
- ◯ mei 21 — *u op 1*
- ◯ mei 20 — *o op 2*

8. Als je 5 km per uur loopt, dan duurt de wandeltocht van Middelburg naar Groningen (afstand 380 km) ..... uur, als je onderweg 20 uur uitrust.

- ◯ 99 uur — *u op 8*
- ◯ 92 uur — *v op 6*
- ◯ 96 uur — *l op 4*

9. Vermenigvuldig de helft van 178 met 15.

- ◯ 1785 — *w op 9*
- ◯ 2670 — *ij op 10*
- ◯ 1335 — *i op 11*

10. 24 munten van 50 eurocent is evenveel waard als ..... munten van 5 eurocent.

- ◯ 240 — *h op 10*
- ◯ 250 — *g op 3*
- ◯ 120 — *p op 4*

11. In een fles gaat 104 cl.
Dat is ..... cl meer dan een liter.

- ◯ 4 — *c op 9*
- ◯ 14 — *k op 5*
- ◯ 54 — *l op 7*

12. Hoeveel liter melk gaat er in 16 flesjes met elk een inhoud van 25 cl?

- ◯ 4 — *r op 3*
- ◯ 40 — *w op 2*
- ◯ 400 — *z op 1*

vraag	1	2	3	4	5	6	7	8	9	10	11	12
antwoord												

Redactiesommen B - blad 24

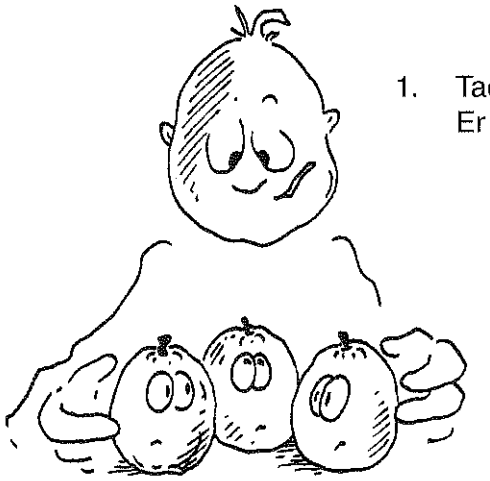

1. Tachtig kinderen krijgen ieder drie sinaasappels.
   Er worden ..... sinaasappels uitgedeeld.
   - ◯ 240 *n op 3*
   - ◯ 180 *h op 2*
   - ◯ 320 *a op 1*

2. Henk brengt 's morgens 47 kranten rond
   en 's avonds 28.
   Hij bezorgt elke dag ..... kranten.
   - ◯ 75 *r op 6*
   - ◯ 65 *w op 5*
   - ◯ 61 *ij op 4*

3. Een vliegtuig vliegt met een snelheid
   van 600 km per uur.
   In 5 uur heeft het vliegtuig ..... km afgelegd.
   - ◯ 120 *p op 9*
   - ◯ 3000 *r op 12*
   - ◯ 1200 *b op 10*

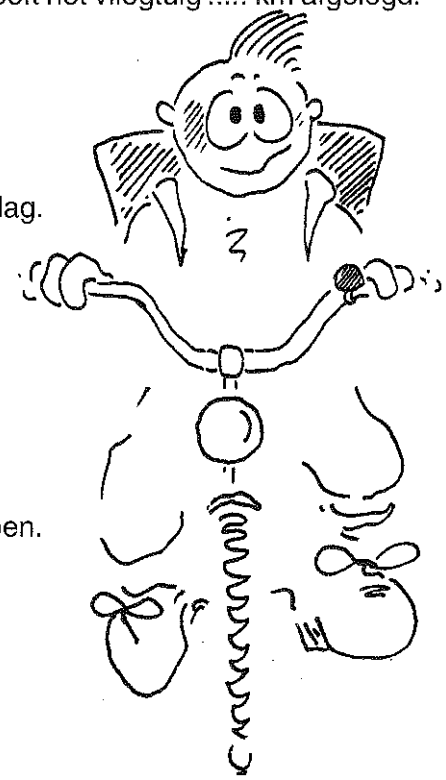

4. Johan heeft 92 sommen gemaakt.
   17 sommen kon hij niet goed oplossen.
   Hoeveel sommen heeft hij goed gemaakt?
   - ◯ 85 *u op 7*
   - ◯ 75 *a op 2*
   - ◯ 79 *o op 3*

5. Een vakantieganger fietst gemiddeld 60 km per dag.
   In 9 dagen heeft hij ..... km gefietst.
   - ◯ 540 *b op 7*
   - ◯ 450 *o op 6*
   - ◯ 630 *u op 8*

6. In een nieuwe straat staan 36 huizen.
   Er worden er nog 9 bij gebouwd.
   In die straat staan dan ..... huizen.
   - ◯ 27 *w op 5*
   - ◯ 45 *e op 11*
   - ◯ 47 *v op 6*

7. In een groep zitten dertig kinderen.
   Iedere leerling krijgt 4 keer per jaar een nieuwe pen.
   Meneer deelt ..... pennen per jaar uit.
   - ◯ 160 *g op 7*
   - ◯ 120 *e op 8*
   - ◯ 240 *z op 9*

8. Die dertig leerlingen maakten op
   een dag ieder veertig sommen.
   Meneer moest ..... sommen nakijken.
   - ◯ 120 *c op 11*
   - ◯ 1200 *h op 1*
   - ◯ 1320 *p op 12*

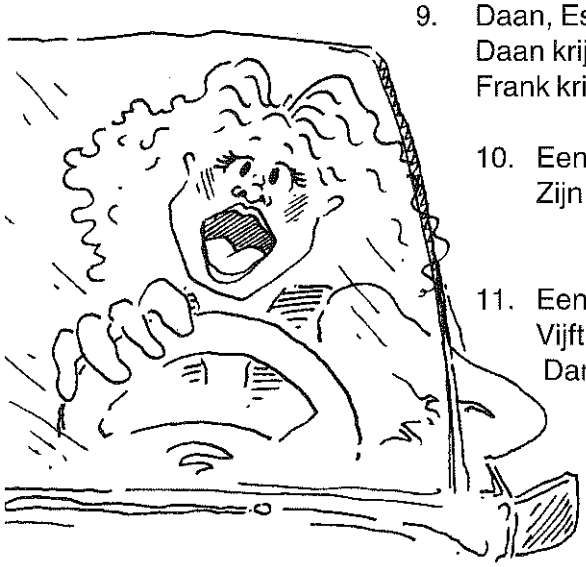

9. Daan, Esther en Frank verdelen 800 postzegels.
   Daan krijgt een kwart. Esther twee keer zoveel.
   Frank krijgt ..... .
   - ◯ 200 *d op 10*
   - ◯ 100 *a op 12*
   - ◯ 150 *z op 11*

10. Een auto legt in 3 uur 210 km af.
    Zijn snelheid is gemiddeld ..... per uur.
    - ◯ 63 km *a op 8*
    - ◯ 70 km *i op 9*
    - ◯ 36 km *p op 10*

11. Een school telt 330 leerlingen.
    Vijftig leerlingen gaan naar het voortgezet onderwijs.
    Dan zijn er nog ..... leerlingen op school.
    - ◯ 380 *g op 3*
    - ◯ 338 *v op 4*
    - ◯ 280 a op 5

12. Iemand verdient in 4 weken € 1200,-.
    In één week verdient hij € ..... .
    - ◯ € 360,- *e op 1*
    - ◯ € 480,- *b op 2*
    - ◯ € 300,- *d op 4*

1	2	3	4	5	6	7	8	9	10	11	12	vraag
◯	◯	◯	◯	◯	◯	◯	◯	◯	◯	◯	◯	antwoord

Ben je klaar?
Vraag dan toets 4 van deel B

Kent u de andere Kinheim blokboeken?

Aardrijkskunde

90-6052-174-9	Atlas van Nederland
90-6052-176-5	Atlas van Europa
90-6052-180-3	Atlas van de Wereld
90-6052-177-3	Blokboek Nederland
90-6052-178-1	Blokboek Europa
90-6052-165-x	Blokboek Wereld

Taal

90-6052-002-5	Blokboek Taal 3
90-6052-132-3	Blokboek Taal 4
90-6052-148-x	Blokboek Taal 5
90-6052-144-7	Blokboek Taal 6
90-6052-162-5	Blokboek Taal 7
90-6052-158-7	Blokboek Taal 8
90-6052-018-1	Blokboek Taal 7 extra
90-6052-019-x	Blokboek Taal 8 extra
90-6052-017-3	Cryptologisch

Werkboek afscheid basisschool

90-6052-016-5	Bekijk 't maar, groep 8

Geschiedenis

90-6052-003-3	Blokboek geschiedenis 6
90-6052-004-1	Blokboek geschiedenis 7
90-6052-005-x	Blokboek geschiedenis 8

Natuur

90-6052-027-0	Blokboek Natuur 4
90-6052-028-9	Blokboek Natuur 5
90-6052-024-6	Blokboek Natuur 6
90-6052-025-4	Blokboek Natuur 7
90-6052-026-2	Blokboek Natuur 8

Staatsinrichting

90-6052-167-6	Blokboek Staatsinrichting

Verkeer

90-6052-146-3	Blokboek Verkeer 3
90-6052-147-1	Blokboek Verkeer 4
90-6052-131-5	Blokboek Verkeer 5
90-6052-153-6	Blokboek Verkeer 6
90-6052-154-4	Blokboek Verkeer 7/8
Handleiding	Vijf deeltjes

Rekenen

90-6052-006-8	Blokboek redactiesommen A
90-6052-007-6	Blokboek redactiesommen B
90-6052-008-4	Blokboek redactiesommen C
90-6052-009-2	Blokboek redactiesommen D
Handleiding	Eén boek voor vier delen

Tekenen

90-6052-029-7	Blokboek tekenen 4
90-6052-030-0	Blokboek tekenen 5
90-6052-031-9	Blokboek tekenen 6
90-6052-127-7	Blokboek tekenen 7
90-6052-128-5	Blokboek tekenen 8

Bij alle blokboeken zijn antwoordenboeken te krijgen

W. de VlugtBlokboek redactiesommen B

1999 2e druk
Vormgeving: Freek Heidinga
Illustraties: Noga Zohar
ISBN: 90 6052 007 6

© 1999 Kinheim Marketing BV
't Zand 10
4254 XP Sleeuwijk
tel 0183 - 302537
fax 0183 - 304996

Het is niet toegestaan pagina's uit dit boek te kopiëren.